1. Aşağıdaki tabloda büyük ve küçük ölçekli haritaların özellikleri verilmiştir.

	Özellik	Büyük Ölçekli Harita	Küçük Ölçekli Harita
I	Düzlem üzerinde kapladığı alan	Geniştir	Dardır
II	Ayrıntıyı gösterme gücü	Azdır	Fazladır
III	Hata Oranı	Azdır	Fazladır
IV	Ölçeğin paydasındaki rakam	Küçüktür	Büyüktür
V	Eş yükselti eğrileri arasındaki yükselti farkı	Fazladır	Azdır

Buna göre tabloda verilen bilgilerden hangisi yanlıştır?

A) I ve II B) II ve V C) IV ve V
D) III ve IV E) I ve V

2. Uzaktan algılama teknikleri ile elde edilen mekânsal veriler haritalara aktarılırken noktasal, çizgisel ve alansal olmak üzere üç çeşit yöntem kullanılır.

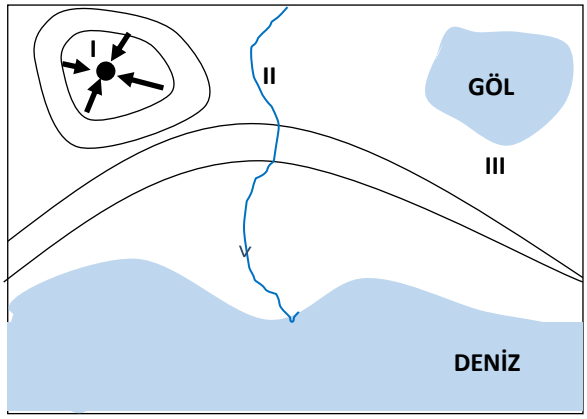

Buna göre yukarıdaki izohips haritasında numaralandırılarak verilen sönmüş yanardağ, göl ve akarsu için kullanılan bilgi aktarma yöntemi aşağıdakilerden hangisinde doğru olarak verilmiştir?

	I	II	III
A)	Noktasal	Çizgisel	Alansal
B)	Çizgisel	Noktasal	Alansal
C)	Noktasal	Alansal	Alansal
D)	Alansal	Çizgisel	Noktasal
E)	Noktasal	Alansal	Çizgisel

3. I. Kuşbakışı çizilmesi

II. Düzleme aktarılması

III. Ölçeğin olması

IV. Yön okunun bulunması

Yukarıdakilerden hangileri bir çizimin harita olarak adlandırılması için gerekli olan özelliklerdendir?

A) I - II - III B) I - III - IV C) II - III - IV
D) I - II E) II - III

4. Aşağıda Marmara bölgesinin farklı ölçekler ile çizilmiş haritaları numaralandırılarak verilmiştir.

I

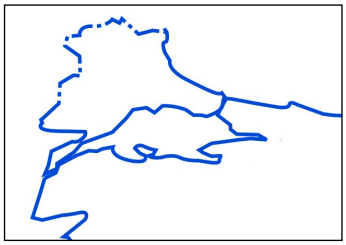
II

III

Buna göre yukarıdaki haritalar ile ilgili olarak;

I. Küçültme oranı en fazla olan harita I. numaralı haritadır.

II. Ayrıntıyı gösterme gücü en fazla olan harita III numaralı haritadır.

III. Bu haritaların aynı ölçekleri korunarak aynı büyüklükte kağıtlara çizildiği düşünüldüğünde haritada da en geniş alanı gösteren I. numaralı haritadır.

IV. II. Haritanın ölçek paydasındaki rakam, III. haritanın ölçek paydasındaki rakamdan daha büyüktür.

Yargılarından hangileri doğrudur?

A) I ve IV B) I ve II C) I ve III
D) II ve III E) III ve IV

Ahmet Burak Kargı © www.cografyaokulum.com

5. Sivas'ın aynı küçültme oranı ile çizilen siyasi ve fiziki haritalarına bakılarak;

I. Haritaların duvarda kapladığı alan

II. Lejantta yer alan işaretler

III. Yer şekillerini ayrıntılı gösterme gücü

IV. Ölçek paydasındaki rakamları

Özelliklerinden hangilerinin benzer olduğu söylenebilir?

A) Yalnız I B) Yalnız II C) I ve III

D) II ve IV E) I ve IV

6. Dünya'nın küresel şeklinden dolayı bir yerin hatasız olarak düzlem üzerinde aktarılması neredeyse imkansızdır. Yuvarlak dünyayı düzleme aktarırken olabilecek bozulmaları en aza indirmek için bazı yöntemler geliştirilmiştir. Bu yöntemlere projeksiyon yöntemleri denir.

Buna göre konik projeksiyon yöntemi ile çizilen bir dünya haritasında aşağıdaki ülkelerden hangisinde bozulma en az olur?

A) ABD B) Norveç C) Endonezya

D) Brezilya E) Kanada

7. Fiziki haritalarda yer şekilleri gösterilirken farklı yöntemler kullanılabilir. Bu yöntemlerden birisi renklendirme yöntemidir. Bu yöntemlerden biride renklendirme yöntemidir.

Aşağıdakilerden hangisi renklendirme yöntemi ile ilgili <u>yanlış</u> bir bilgidir?

A) Yüksek yerler kahverengi, alçak yerler ise yeşil renk ile gösterilir.

B) Renk değişiminin fazla olduğu bölgeler engebeli yerlerdir.

C) Sadece kahverenginin kullanıldığı bir bölgede yer şekilleri sadedir.

D) Ormanlık alanlar yeşil renk ile gösterilir.

E) Profil ve eğim hesaplanabilir.

Ahmet Burak Kargı © www.cografyaokulum.com

8. Mersin'in siyasi haritasına bakılarak aşağıdakilerden hangisine ulaşılamaz?

A) Mersin'in ilçelerinin sınırları

B) Mersin kıyılarının derinliği

C) Mersin'in komşu illeri

D) Mersin ile Anamur arasındaki kuş uçumu uzaklık

E) Mersin'in coğrafi konumu

9. Aşağıdaki dünya haritasında üç merkez numaralarla gösterilmiştir.

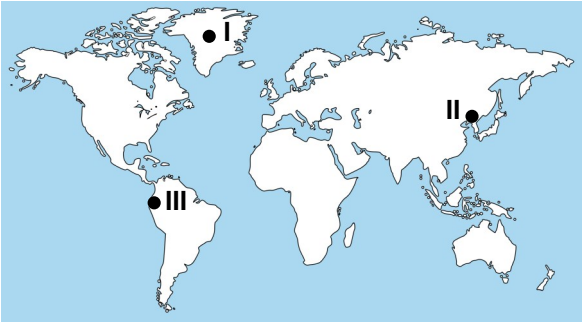

Buna göre dünya haritasında numaralandırılarak verilen merkezler hangi projeksiyon yöntemi ile çizilirse hata oranı daha az olur?

	I	II	III
A)	Konik	Silindir	Düzlem
B)	Konik	Konik	Silindir
C)	Düzlem	Silindir	Konik
D)	Düzlem	Konik	Silindir
E)	Düzlem	Silindir	Silindir

10. Oryanting sporu harita kullanarak yön bulmayı içeren ve zamana karşı yapılan bir spor türüdür. Her türlü arazi koşullarında yapılabilse de genellikle ormanlık arazide yapılması tercih edilir. Çoğu ülkede konfederasyonlar halinde örgütlenmiştir ve belirli kurallar çerçevesinde gerçekleştirilir.

Bu spor dalı için en uygun harita türü aşağıdakilerden hangisidir?

A) Meteoroloji haritaları

B) Ekonomi haritaları

C) Jeoloji haritaları

D) Bitki örtüsü haritaları

E) Topografya haritaları