YKS COĞRAFYA Deneme Seti

10 TYT
10 AYT
Coğrafya Denemesi

Ahmet Burak Kargı

CografyaDefterim.com

TYT DENEME SINAVI

Bu kısımda beşer sorudan oluşan 10 adet TYT coğrafya dersi deneme sınavı bulunmaktadır.

Kitapçıkta yer alan soruların ve çizimlerin tüm hakları **Ahmet Burak Kargı**'ya aittir. Kitapçığın tamamının ya da bir kısmının elektronik, mekanik, fotokopi ya da herhangi bir kayıt sistemiyle çoğaltılması, yayınlanması depolanması yasaktır.

Yazar: Ahmet Burak Kargı

Telefon: 0532 162 00 58

Eposta: ahmetburakkargi@gmail.com

1.

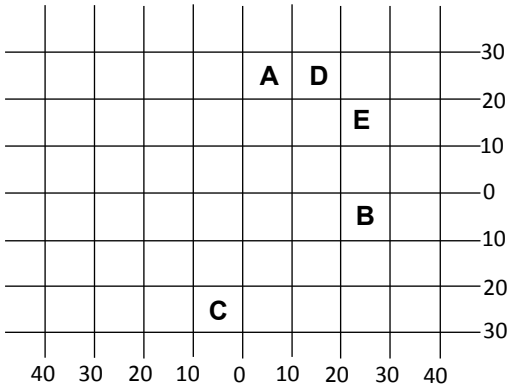

Yukarıdaki koordinat sisteminde bazı merkezler verilmiştir.

I. A-D-C merkezlerinin iz düşüm alanları aynıdır

II. 21 Aralık tarihinde en uzun gündüz C merkezinde olur.

III. A ve D merkezlerinin tamamına güneş ışınları yıl içinde bir defa dik açıyla gelir.

IV. E ve B merkezlerinin tarih değiştirme çizgisine uzaklıkları aynıdır.

V. Tüm merkezlerin en doğusu ve en batısı arasında 40 dakikalık zaman farkı ve 1110 km uzaklık vardır.

Bu merkezlerle ilgili olarak yukarıdaki yargılardan kaç tanesi doğrudur?

A) 1 B) 2 C) 3 D) 4 E) 5

2. Nüfus Artış hızının yüksek olmasının birçok olumlu ve olumsuz sonucu bulunmaktadır.

I. İşçi ücretlerinin ucuzlaması

II. Demografik yatırımların artması

III. İhracatın azalması

IV. Vergi gelirlerinin artması

Buna göre aşağıdakilerden hangileri nüfus artış hızının olumsuz sonuçları arasında <u>gösterilemez?</u>

A) I ve IV

B) II ve IV

C) III ve IV

D) I - II - III

E) I-III

3.

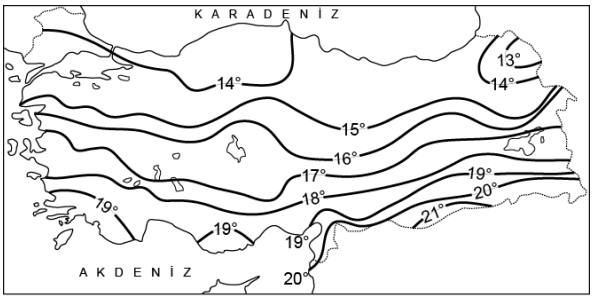

TÜRKİYE'NİN YILLIK İNDİRGENMİŞ SICAKLIK HARİTASI

Yukarıdaki haritada Türkiye'nin yıllık ortalama indirgenmiş izoterm haritası verilmiştir. **Buna göre;**

I. Haritada görülen en yüksek ve en düşük sıcaklık arasındaki fark 8 dereceden fazladır.

II. Haritaya göre en düşük sıcaklıkların olduğu Erzurum-Kars'ta sıcaklıkların düşük olmasının nedeni yükseltinin fazla olmasıdır.

III. Haritada Türkiye'nin güneyinden kuzeyine doğru gidildikçe sıcaklığın azalmasının nedeni enlemdir.

Yukarıdakilerden hangisi bu haritaya bakılarak çıkarılabilecek bir yargı değildir?

A) I B) II C) I - II D) II - III E) I - III

4. Türkiye toprak çeşitliliği fazla olan bir ülkedir.
Buna göre;

I. İklim çeşitliliğinin fazla olması

II. Kayaç çeşitliliğinin fazla olması

III. Yer şekillerinin kısa mesafede değişiklik göstermesi

IV. Türkiye'nin Asya, Avrupa ve Afrika kıtaları arasında doğal bir köprü durumunda olması

hangileri Türkiye'de toprak çeşitliliğinin fazla olmasını en iyi açıklar?

A) I – IV

B) II – III

C) I – II – III

D) II – IV

E) II – III – IV

Ahmet Burak Kargı © 2018

5. Orojenez, levhaların yanal hareketi sonucu oluşan dağ oluşumudur. Orojenez sonucunda kıvrılma ya da kırılma gerçekleşebilir.

Epirojenez, levhaların manto ile arasındaki izostatik dengesinin bozulması sonucunda dikey yönde gerçekleşen kıta oluşum hareketidir.

Magmanın yerkabuğunun altından yüzeye doğru çıkarak yer yüzünde ya da yerkabuğunun içinde oluşturduğu yer şekillerine ise Volkanik yer şekilleri denir.

I.	Hollanda'da da meydana gelen deniz ilerlemesi	**E**
II.	Hersinyen ve Kaledoniyen dağlarının oluşması	**E**
III.	3. Jeolojik zamanda meydana gelen Toros ve Kuzey Anadolu Dağları	**V**
IV.	Ağrı dağının oluşması	**O**
V.	Meke Gölünün oluşması	**V**

E: Epirojenez **O**: Orojenez **V**: Volkanizma

Buna göre yukarıdaki tabloda verilen olay ve oluşum şekli eşleştirmelerinden hangileri <u>yanlıştır?</u>

A) Yalnız I

B) Yalnız II

C) I ve II

D) II-III-V

E) II-III-IV

Ahmet Burak Kargı © 2018

1. Haritada bulunan Demokratik Kongo Cumhuriyeti ile Meksika'da kayaçlarda farklı çözülme tipleri görülmektedir.

Demokratik Kongo Cumhuriyeti'nde kimyasal çözülme, Meksika'da ise fiziksel (mekanik) çözülme görülmesinde ,

I. Enlem
II. Karasallık
III. Nem ve Yağış Koşulları
IV. Yer şekilleri

faktörlerinden hangisi daha fazla etkili olmuştur?

A) I-II
B) I-II-III
C) II-III
D) II-III-IV
E) III-IV

2. Sıcaklığı incelemek için kullanılan haritalara izoterm haritaları denilmektedir. İzoterm haritalarında gerçek sıcaklık değerleri kullanılabileceği gibi sıcaklığın üzerinde enlemin etkisinin daha iyi incelenebilmesi için indirgenmiş izoterm haritaları da kullanılabilir. İndirgenmiş izoterm haritalarında yükseltinin sıcaklık üzerindeki etkisi yok sayılmaktadır ve merkezlerin sıcaklıkları deniz seviyesine indirgenmektedir.

Aşağıdaki merkezlerin hangisinde indirgenmiş izoterm haritası ile gerçek izoterm haritası arasındaki sıcaklık farkı azdır?

A) Konya B) Kars C) Şanlıurfa D) Muğla E) Bursa

3.

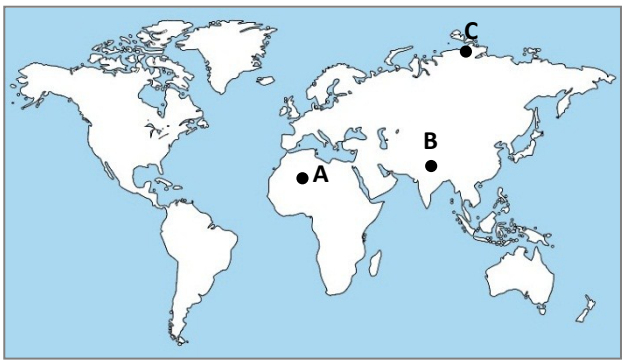

Yukarıdaki haritada Dünya'da yerleşmenin seyrek olduğu alanlar işaretlenerek gösterilmiştir. Aşağıdaki Türkiye haritasında ise yine nüfusun seyrek olduğu yerler verilmiştir.

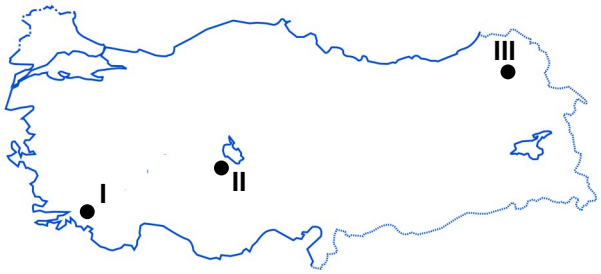

Aşağıdakilerden hangisinde haritalarda işaretlenen bu yerlerde nüfusun aynı nedene bağlı olarak seyrek olduğu yerler doğru eşleştirilmiştir?

A)

A	I
B	II
C	III

B)

A	II
B	I
C	III

C)

A	III
B	I
C	II

D)

A	II
B	III
C	I

E)

A	I
B	III
C	II

Ahmet Burak Kargı © 2018

4. **Aşağıdakilerden hangisi doğal sistemleri inceleyen bir bilim <u>değildir?</u>**

A) Klimatoloji

B) Oseonagrafya

C) Demografi

D) Limnoloji

E) Jeoloji

Ahmet Burak Kargı © 2018

5.

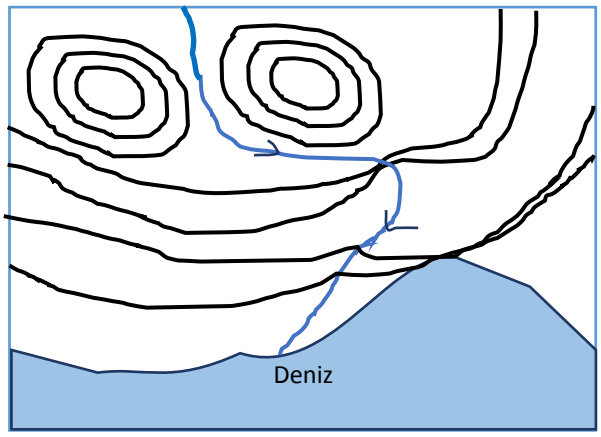

Yukarıdaki izohips haritasında aşağıdaki yer şekillerinden hangisi **<u>bulunmaz?</u>**

A) Falez

B) Şelale

C) Yamaç

D) Boyun

E) Vadi

1. Sert Karasal iklim alanlarında özellikle orman üst sınırı sonrasında, boyları bir metreden fazla olan çayır bitki örtüsü altında, humus bakımından çok zengin olan Çernozyom topraklar oluşmuştur.

Türkiye'de özellikle Erzurum – Kars yöresinde görülen oldukça verimli olan bu topraklarda tarım yerine büyükbaş hayvancılık yapılmasını

I. Bölgenin volkanik arazisi
II. Kışların çok uzun ve sert geçmesi
III. Bölgede yapılan hayvancılık faaliyetlerinden elde edilen gelirin yüksek olması

faktörlerinden hangileri en iyi açıklar?

A) Yalnız I
B) Yalnız II
C) I – II
D) I – III
E) II – III

2. Doğal unsurlar ve beşerî unsurlar karşılıklı etkileşim içerisindedir. Doğal unsurlar insanların yürüttüğü ekonomik faaliyetleri, giyimleri, kültürleri gibi daha birçok konu üzerinde söz sahibidir.

Aşağıdakilerden hangisi doğanın insan üzerine etkisine örnek <u>gösterilemez?</u>

A) Çölde yaşayan insanların geleneksel kıyafetlerinin genellikle açık renkli olması.
B) Delta ovaların verimli tarım alanları olması.
C) Erzurum'da evlerin balkon ve pencerelerinin küçük olması.
D) Çin'in Shangay kentinde kış mevsiminde havadaki karbondioksit oranının çok yüksek olması.
E) Hollanda'da patates tarımının yapılması.

Ahmet Burak Kargı © 2018

3. Coğrafya öğretmeni Burak öğrencisi Tutku'ya Dünya üzerinde bulunan A, B, C şehirleri ile ilgili aşağıdaki bilgileri vermiştir.

- A merkezinde yıl içindeki gece ve gündüz süre farkı B ve C merkezlerine göre daha fazladır.
- B merkezine güneş ışınları 25 Mayıs tarihinde dik açı ile gelir.
- C ve B merkezlerinin yıl boyunca öğle vakitlerinde güneşin ufuk düzlemindeki yükseltisi aynıdır.

Yukarıdaki bilgilere göre bu merkezler ile ilgili olarak Tutku'nun yapacağı

I. B Merkezi Kuzey Yarım Küre'de yer alır.
II. A merkezinde grup ve tan süreleri B ve C merkezlerine göre daha kısadır.
III. C ve B merkezleri aynı enlem üzerinde dir.
IV. B merkezinde dört mevsim belirgindir.

yorumlarından hangisi doğru olabilir?

A) Yalnız I
B) Yalnız III
C) I ve III
D) I ve IV
E) II ve IV

4. Doğal ve beşerî özellikler bakımından ortak özelliklere sahip alanlara bölge ismi verilir. Bölgeleri doğal özelliklerine ve beşerî özelliklerine göre sınıflandırabiliriz.

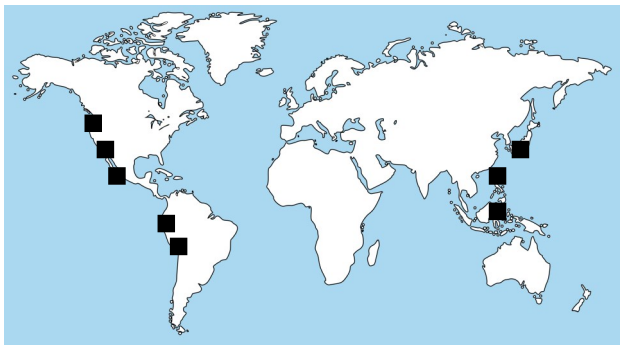

Buna göre yukarıdaki haritada gösterilen bölge sınırları ile aşağıdakilerden hangisi paralellik <u>göstermez?</u>

A) Deprem bölgeleri

B) Sıcak su kaynakları bölgeleri

C) Jeotermal enerji kaynakları bölgeleri

D) Engebeli bölgeler

E) Sık nüfuslu bölgeler

Ahmet Burak Kargı © 2018

5.

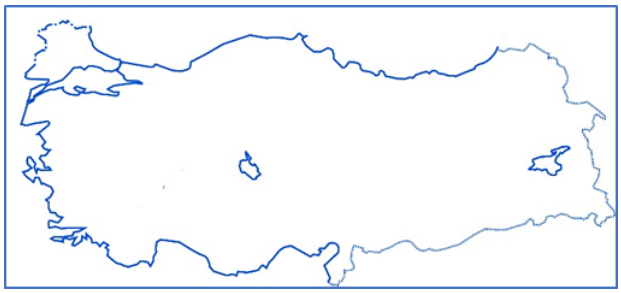

I. HARİTA



II. HARİTA

Yukarıda aynı boyutta kağıtlara çizilen iki Türkiye haritası verilmiştir. I. haritada Türkiye'nin tamamı gösterilirken II. haritada sadece Türkiye'nin kuzey batısı gösterilmektedir.

Buna göre aşağıdakilerden hangisi doğrudur?

A) I. haritanın ölçeği daha büyüktür.

B) I. haritada gösterilen İstanbul boğazı ve Çanak kale boğazı arasındaki uzaklık II. haritada daha kısadır.

C) II. haritada ayrıntı daha azdır.

D) I. haritanın ölçek paydasındaki rakam II. haritanın ölçek paydasındaki rakamdan daha küçüktür.

E) II. haritadaki küçültme oranı daha azdır.

1. I. Lapya, dolin, uvala gibi yer şekilleri yaygındır.

II. Kış ılıklığı isteyen tarım ürünleri yetiştirilemez.

III. Cephesel yağışlar etkilidir.

IV. Alize rüzgarları görülür.

Kalkerli araziye sahip, kimyasal çözülmenin etkili olduğu, yazları sıcak ve kurak, kışları ılık ve yağışlı geçen bir iklim bölgesi ile ilgili yukarıdakilerden hangisi <u>söylenemez?</u>

A) I-II
B) I-III
C) II-IV
D) III-IV
E) II-III

2. Mersin'de yaşayan Özde, coğrafya dersinde gündüz ve gece sürelerinin yıl içinde uzayıp kısalmasının nedeninin elsen eğikliği olduğunu öğrendi. Daha sonraki günde gündüz ve gece sürelerini ölçerek aşağıdaki sonuçlara vardı;

- Mersin'de gündüzlerin gecelerden daha uzun olduğu.
- Gündüzlerin bir önceki güne göre sürekli kısaldığı.

Özde 'nin yukarıdaki gözlemleri yaptığı tarih aralığı aşağıdakilerden hangisi olabilir?

A) 24 Ağustos – 20 Eylül
B) 23 Ekim - 20 Aralık
C) 21 Aralık – 1 Ocak
D) 7 Nisan – 19 Mayıs
E) 19 Haziran – 20 Haziran

3. Bir yerdeki doğumların ölümlere oranlanması ile doğal nüfus artışı hızı bulunurken doğum, ölüm ve göçlerin birbirine oranlanması ile gerçek nüfus artışı bulunmaktadır.

Gerçek nüfus artış hızı doğal nüfus artış hızından yüksek olan bir yer için aşağıdaki ifadelerden hangisi doğru olur?

A) Hızla nüfus azalmaktadır
B) Doğum oranları yükselmektedir.
C) Sanayi gelişmemiştir.
D) Göç almaktadır.
E) Ölüm oranları fazladır.

Ahmet Burak Kargı © 2018

4.

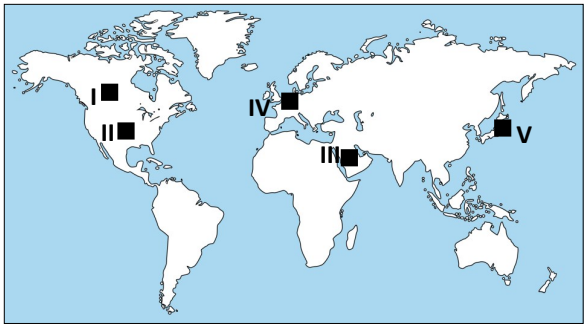

Yukarıda işaretli alanların hangisinde demiryolu ağı diğerlerine göre daha az gelişmiştir?

A) I
B) II
C) III
D) IV
E) V

5.

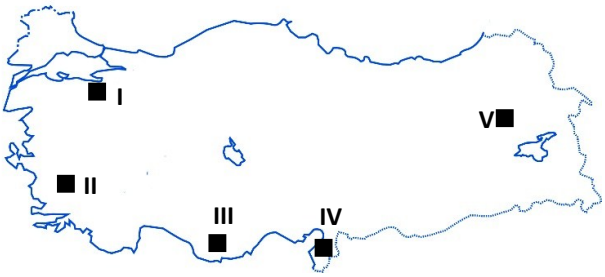

Yukarıdaki haritada işaretli alanların hangisinde jeotermal enerji potansiyeli daha **azdır?**

A) I
B) II
C) III
D) IV
E) V

Ahmet Burak Kargı © 2018

1. Ali 21 Haziran tarihinde 180° meridyeninden başlayarak Ekvator üzerinden 4 saat boyunca doğu yönüne sabit bir hızla hareket ederek X merkezine ulaşıyor, Burak ise yine aynı meridyenden 30° enlemi üzerinde 4 saat boyunca aynı hızla doğu yönünde hareket ederek Y merkezine ulaşıyor ve ulaştıkları merkezlerle ilgili aşağıdaki yorumlarda bulunuyorlar;

I. **Ali:** X merkezinin meridyen derecesi ile Y merkezinin meridyen derecesi ile aynıdır.

II. **Burak:** Y merkezinin başlangıç meridyeni ile arasındaki zaman farkı X merkezin başlangıç meridyeni ile arasındaki zaman farkından daha fazladır.

III. **Ali:** X merkezinde güneş Y merkezine göre daha geç doğar.

IV. **Burak:** Y merkezinde bir cismin öğle vaktindeki gölge boyu X merkezindeki cismin gölge boyundan daha uzundur.

Ali ve Ahmet'in vardıkları noktalarla ilgili aşagıda yaptıkları yorumlardan hangileri doğru olur?

A) I-II
B) II-III
C) II-IV
D) III-I
E) III-IV

2. Yer kabuğunun hemen altında bulunan yarı akışkan kızgın bir sıvı olan magma tüm kayaçların temelini oluşturur. Magmanın yeryüzüne çıkarak soğuması ve dış kuvvetlerin etkisi ile farklı kayaç türleri ortaya çıkmıştır.

	Kayaç Cinsi	Açıklama
I	Püskürük Kayaç	Bünyelerinde fosil olmaz
II	Tortul Kayaçlar	Oluşumlarında çözülme, çimentolaşma ve basınç etkilidir.
III	Tortul Kayaçlar	Yerkabuğunun derinlikleri ile ilgili bilgi verirler

Kayaçlar ile ilgili tabloda verilen açıklama ve kayaç ismi eşleştirmelerinden hangisi <u>yanlıştır?</u>

A) I
B) II
C) III
D) I-II
E) II-III

Ahmet Burak Kargı © 2018

3. Rüzgâr yüksek basınç merkezlerinden alçak basınç merkezlerine doğru yatay yönlü hava hareketidir.

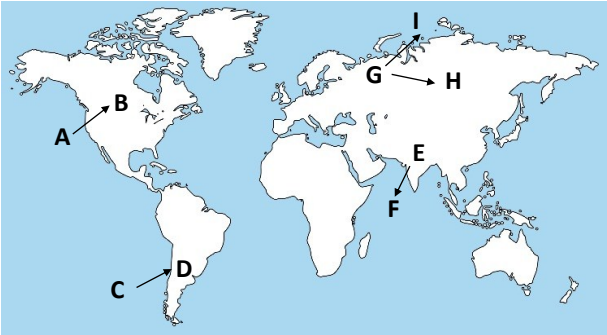

Sıcaklığın basınç üzerindeki etkisi göz önünde bulundurulduğunda temmuz ayında aşağıdaki işaretli yerlerden hangisinde rüzgârın esiş yönü doğru verilmiştir?

A) A'dan B'ye doğru
B) C'den D'ye doğru
C) E'den F'ye doğru
D) G'den H'ye doğru
E) G'den I'ya doğru

4.

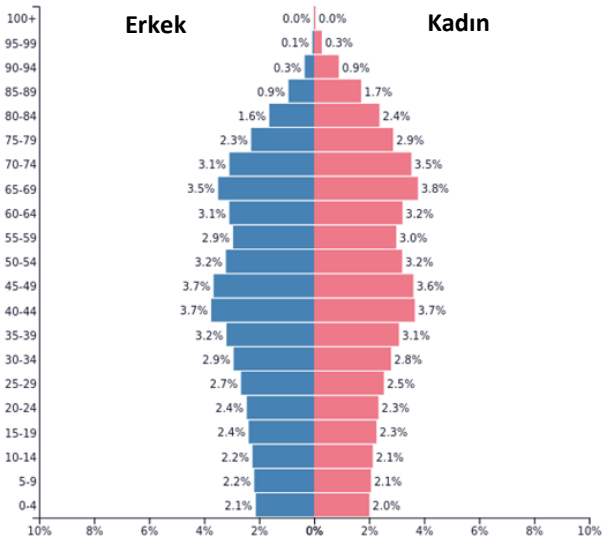

Yukarıda Japonya'nın 2010 yılına ait nüfus piramidi verilmiştir.

I. Son yıllarda çocuk bağımlı nüfusu azalırken 15-64 yaş arası bağımlı nüfus artmıştır.

II. Japonya'nın doğum oranı azalmaktadır.

III. 0-4 yaş arasındaki çocuk nüfus sayısı,15-64 yaş arasındaki olgun nüfusu sayısından daha azdır.

Bu nüfus piramidine göre yukarıdaki yargılar dan hangisine <u>ulaşılamaz?</u>

A) I

B) II

C) III

D) II-III

E) I-III

Ahmet Burak Kargı © 2018

5.

Sıcaklık, kuraklık, aşırı soğuk, aşırı yağış ve yer şekillerinin çok engebeli olması gibi doğal faktörler nüfusu ve yerleşmeyi olumsuz etkilemektedir.

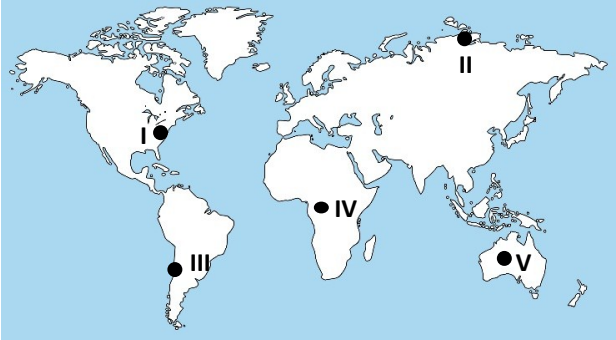

Haritada numaralandırılarak işaretlenen yerlerden hangisi yukarıda bahsedilen doğal faktörler yüzünden nüfusun ve yerleşmenin seyrek olduğu yerlere örnek olarak <u>gösterilemez?</u>

A) I

B) II

C) III

D) IV

E) V

1.

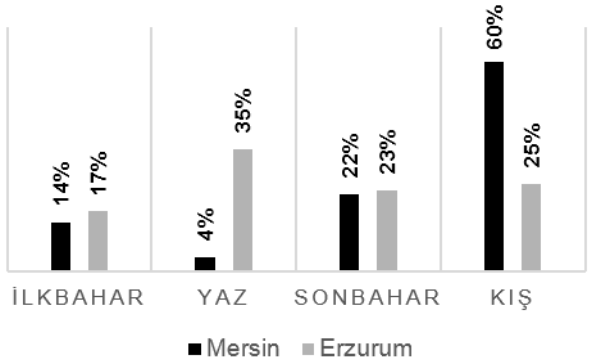

Yukarıdaki grafikte Mersin ve Erzurum'un yıllık yağış miktarlarının mevsimlere göre dağılış oranları verilmiştir.

I. Erzurum'a yıl içindeki en çok yağış yaz mevsiminde düşer.

II. Erzurum'un sonbahar mevsiminde aldığı yağış miktarı Mersin'in sonbahar mevsiminde aldığı yağış miktarından daha fazladır.

III. Erzurum'un yağış rejimi Mersin'e göre daha düzenlidir.

Grafiğe göre yukarıda numaralandırılarak verilen ifadelerden hangisi doğrudur?

A) I

B) II

C) I-II

D) I-II-III

E) I-III

2. Alperen ve Ali coğrafya dersi için Bolkar dağlarının bir kesitinin izohips haritasını aynı büyüklükteki kağıtlara çizerek ödevlerini tamamlamışlardır.
Aynı bölgeyi çizmelerine rağmen Ali'nin çizdiği haritada bölgede bulunan Meydan tepesi Alperen'in haritasında daha küçük görünmektedir.

Buna göre Ali ve Alperen'in çizdikleri izohips haritaları ile ilgili aşağıdakilerden hangisi söylenemez?

A) Ali'nin çizdiği haritadaki izohipslerin arasındaki yükselti farkı Alperen'in çizdiği haritadaki izohipslerin arasındaki yükselti farkından daha fazladır.

B) Alperen'in çizdiği izohips haritasının ölçeği daha küçüktür.

C) Ali'nin haritasının ölçek paydasındaki rakam daha küçüktür.

D) Ali'nin haritasındaki ayrıntı daha fazladır.

E) Alperen, Ali'ye göre daha geniş bir alanı haritasında gösterebilmiştir.

Ahmet Burak Kargı © 2018

3.

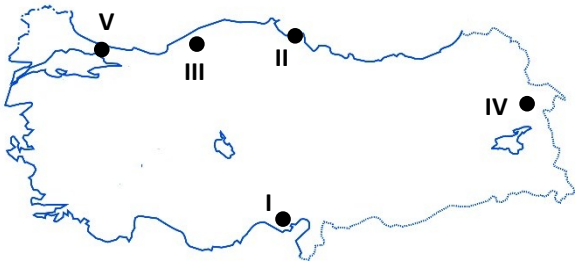

Yukarıdaki haritada işaretli alanların hangisinin oluşumu daha eski bir jeolojik zamana dayanmaktadır?

A) I

B) II

C) III

D) IV

E) V

4. 30° Doğu meridyeninden bulunan İstanbul'da 23 Mayıs 2018 tarihinde saat 21:00'da yayınlanacak olan boks turnuvası canlı yayın ile tüm Dünya'dan izlenebilecektir.

Uzun yol gemi kaptanı olan Ali kaptan 150 ° batı meridyeninde bulunan Seward limanında aşağıdaki saat ve tarihlerden hangisinden karşılaşmayı canlı olarak seyredebilir?

	Saat	Tarih
I	09:00	24 Mayıs 2018
II	22:00	24 Mayıs 2018
III	13.32	24 Mayıs 2018
IV	09:00	23 Mayıs 2018
V	09:00	22 Mayıs 2018

A) I
B) II
C) III
D) IV
E) V

Ahmet Burak Kargı © 2018

5.

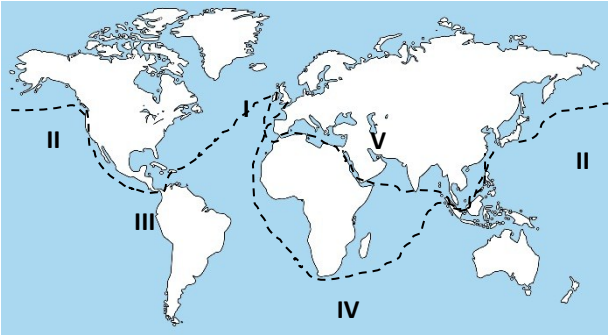

Yukarıdaki haritada Dünya üzerinde deniz ve okyanuslarda bulunan deniz yolu güzergahları numaralandırılarak verilmiştir.

Buna göre aşağıdaki tabloda numarası ve güzergahı bulunan deniz yollarından hangisinin trafik yoğunluğu diğerlerinden daha azdır?

Numara	**Güzergâh**
I	Amerikanın Doğu Kıyıları, Kuzeybatı Avrupa
II	Güneydaoğu Asya ülkeleri, Amerika'nın Doğu Kıyıları
III	Amerika'nın Doğu Kıyıları, Panama kanalı, Kuzey Batı Avrupa
IV	Kuzey Batı Avrupa, Güney Afrika, Güneydoğu Asya
V	Kuzey Batı Avrupa, Akdeniz, Süveyş Kanalı, Güney Doğu Asya

A) I
B) II
C) III
D) IV
E) V

1.

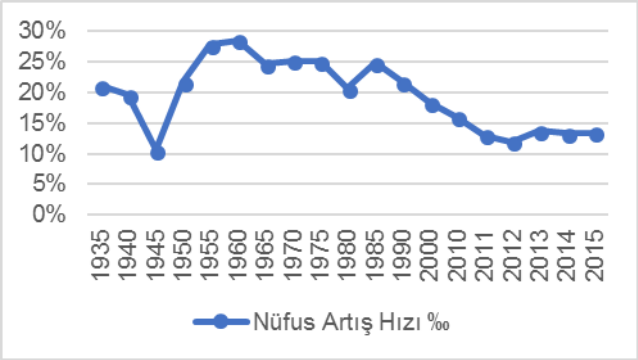

Yukarıdaki grafikte Türkiye'nin 1935 ile 2015 yılları arasındaki nüfus artış hızı grafiği verilmiştir.

I. Nüfus artış hızının en fazla olduğu yıllar 1955 ve 1960 yıllarıdır.

II. Nüfusun en az olduğu yıl 1945 yıldır.

III. 1960 – 1965 yılları arasında nüfus artış hızının düşmesinin nedeni yurtdışına verdiğimiz işçi göçleridir.

Buna göre yukarıdaki bilgilerden doğru olanlar aşağıdakilerin hangisidir?

A) I
B) I-II
C) III
D) I-III
E) I-II-III

2. Dünya'nın yuvarlak şekli yüzünden haritalar çizilirken düzleme hatasız bir şekilde aktarılamaz. Bu yüzden haritalarda oluşan bu hatayı en aza indirmek için projeksiyon yöntemleri uygulanmaktadır.

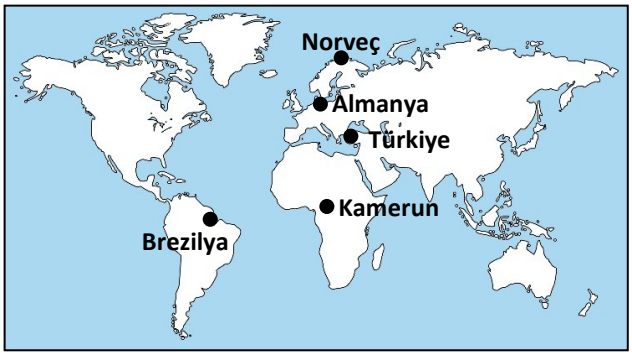

Buna göre yukarıdaki haritada bulunan merkez ve bu merkezi haritada en az hata ile göstermek için kullanılan projeksiyon yöntemi yanlış eşleştirilmiştir?

A) Brezilya – Silindir Projeksiyon
B) Kamerun – Slindir Projeksiyon
C) Türkiye – Silindir Projeksiyon
D) Almanya – Konik Projeksiyon
E) Norveç – Düzlem Projeksiyon

Ahmet Burak Kargı © 2018

3.

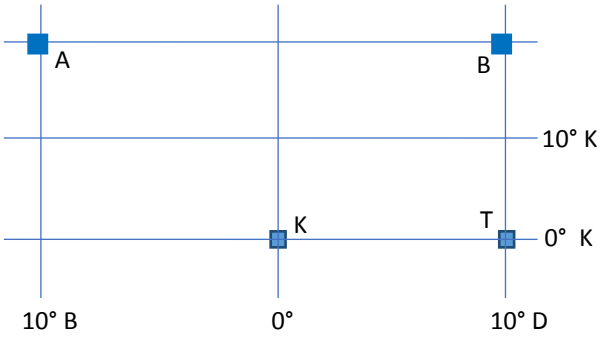

Yukarıda verilen koordinat düzleminde bulunun A-B-K ve T merkezleri ile ilgili aşağıdakilerden hangisi doğrudur?

A) B ve T merkezlerinin başlangıç meridyenine olan uzaklığı aynıdır.

B) A ve B merkezlerinin 24 Ağustos tarihinde gece ve gündüzleri eşittir.

C) Yıl boyunca yaşanan grup ve tan süreleri A ve B merkezlerinde K ve T merkezlerinden daha kısadır.

D) 21 Haziran'da B merkezinde öğle vaktinde dikkilen bir cismin gölgesi T merkezinde öğle vakti dikilen cismin gölgesine göre daha uzun olur.

E) B ve T merkezlerinde güneş yıl boyunca hep aynı anda doğar ve aynı anda batar.

Ahmet Burak Kargı © 2018

4.

Yukarıdaki haritada Dünya'nın en fazla yağış alan yerleri işaretlenmiştir.

Aşağıdakilerden hangisinde fazla yağış alan yerler ile yağışın fazla olma nedeni doğru eşleştirilmiştir?

A)

İngiltere	Kıyıya paralel uzanan yamaçların varlığı
Kongo	Yıl boyunca görülen sürekli termik alçak basınç
Hindistan	Muson Rüzgarları

B)

İngiltere	Soğuk ve Sıcak Hava Kütlelerinin yıl boyunca karşılaşma alanı olması
Kongo	Yıl boyunca görülen sürekli termik alçak basınç
Hindistan	Muson Rüzgarları

C)

İngiltere	Soğuk ve Sıcak Hava Kütlelerinin yıl boyunca karşılaşma alanı olması
Kongo	Batı rüzgarları ile alize rüzgarlarının yıl boyunca karşılaşma alanı olması
Hindistan	Muson Rüzgarları

D)

İngiltere	Yıl boyunca etkili olan Dinamik Yüksek Basınç Alanı olması
Kongo	Muson Rüzgarları
Hindistan	Kıyıya paralel uzanan dağlar

E)

İngiltere	Yıl Boyunca Kutup Rüzgarları ile Batı rüzgarlarının karşılaşma alanı olması
Kongo	Okyanus Akıntıları
Hindistan	Muson Rüzgarları

5. Taşeli platosu Akdeniz bölgesinde yer alan karstik platolardandır. Mersin'in Taşucu ilçesinden sonra başlatan platoda Akdeniz iklimi hakimdir. 0 ile 700 m yükselti aralığında Akdeniz ikliminin karakteristik bitki örtüsü olan yabani zeytinler, harnup, kocayemiş, defne gibi çalı türlerine rastlanır. 700 metreden sonra hava sıcaklığının azalmasından dolayı kızılçam ormanları,1200 metreden sonra da karaçam ormanlarına dağılış gösterir.

Taşeli platosunun engebeli olması yörede tarım alanlarını daraltmış bu yüzden yaygın ekonomik **faaliyet olarak kıl keçisi yetiştiriciliği yaygınlaşmıştır.**

Yukarıdaki paragrafta coğrafyanın;

I. Dağılış

II. Nedensellik

III. Karşılıklı İlgi

İlkelerinden hangisi ile ilgili kullanıma rastlanır?

A) I

B) II

C) I-II

D) II-III

E) I-II-III

Ahmet Burak Kargı © 2018

Ahmet Burak Kargı © 2018

1.

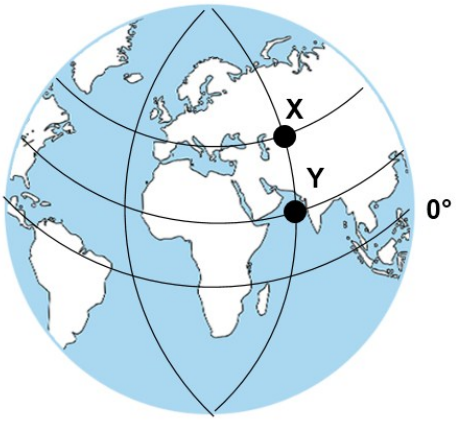

Güneş ışınlarının 23° 27' Kuzey Enlemine dik geldiği bir tarihte aynı meridyen üzerinde bulunan yukarıdaki X ve Y merkezleri ile ilgili;

I. X ve Y merkezlerindeki cisimlerin öğle vak-tin deki gölge boyları aynı olur.

II. X ve Y merkezlerinin 5° Batı Merdiyeni ile ara larıdaki zaman farkı eşittir.

III. X ve Y merkezlerinde yıl boyunca güneş aynı anda doğup aynı anda batar.

IV. 21 Aralık tarihinde Y merkezinde güneş X merkezine göre daha erken doğar ve daha geç batar

V. Yerçekimi X merkezinde Y merkezine göre daha azdır.

yukarıda numaralandırılarak verilen bilgilerden hangisi <u>yanlıştır?</u>

A) I-II
B) I-III-V
C) I-II-V
D) II-III-IV
E) III-IV-V

Ahmet Burak Kargı © 2018

2.

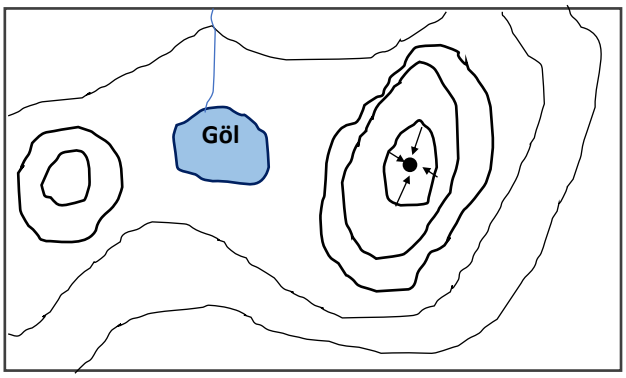

Yukarıdaki izohips haritasında aşağıda verilen yer şekillerinden hangisi <u>bulunmaz?</u>

A) Kıyı çizgisi
B) Kapalı çukur
C) Yamaç
D) Tepe
E) Vadi

3. - Sert Karasal İklim
- Savan İklimi
- Muson İklim

Yukarıda verilen iklimlerin ortak özelliği aşağıdakilerden hangisinde doğru olarak verilmiştir?

A) Ilıman iklimlerden olmaları
B) Yağış rejimlerinin düzenli olması
C) En çok yağışlarını yaz mevsiminde almaları
D) Yıllık sıcaklık farklarının az olması
E) Yağışlı iklimlerden olmaları

4. **Aşağıda Dünyada bulunan önemli boğaz ve kanalların bazı özellikleri verilmiştir.**

- 1488 yılında Kral II. Joao tarafından görevlendirilen Portekizli kâşif Bartolomeu Dias tarafından ipek ve baharat yolunun yerine geçebilecek bir yol aranırken keşfedilmiştir. Keşfedildikten sonra Akdeniz limanları önemini kaybetmiştir.
- Büyük Okyanus ile Hint Okyanusu arasındaki en işlek boğazdır. Dünyada meşhur Somalili korsanların silahlı soygun ve gemi baskını yaptığı noktalardan birisidir.
- Ege Denizi'ni Adriyatik Denizi'ne bağlayan bu kanal 1893'te tamamlanmıştır. Uzunluğu 6,3 km olan kanal, orta boy ve küçük gemilerin geçmesine elverişlidir.
- Orta Amerika'da 1915 yılında işletmeye açılan kanal, Atlas Okyanusu'nu Büyük Okyanus'a bağlamaktadır. Mühendislik harikası olarak tanımlanan kanal, birbirine bağlı havuz sistemlerinden oluşmaktadır.

Buna göre aşağıdakilerden hangisinden <u>bahsedilmemiştir?</u>

A) Malaka Boğazı

B) Panama Kanalı

C) Korint Kanalı

D) Ümit Burnu

E) Dover Boğazı

Ahmet Burak Kargı © 2018

5. Aşağıda bir ülkeye ait 1999 ve 2017 yıllarına ait nüfus piramitleri verilmiştir. **Buna göre;**

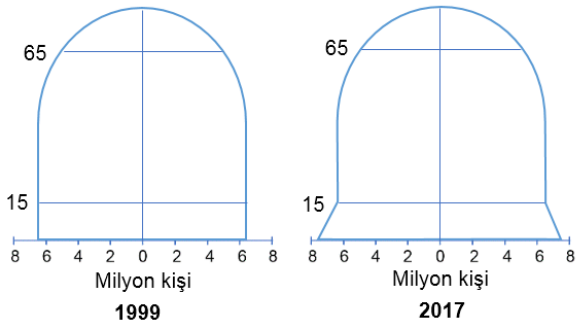

I. 2017 yılında ülkedeki demografik yatırımlar 1999 yılında göre azalmıştır.

II. 1999 yılındaki doğum oranları daha düşüktür.

III. 2017 yılında genç bağımlı nüfus oranı artmıştır.

IV. Çalışma çağındaki işgücüne dahil nüfus oranı artmıştır.

Yukarıda numaralandırılarak verilen yorumlardan hangisi <u>yanlıştır?</u>

A) I

B) II

C) I ve III

D) I ve IV

E) III ve IV

1. Aşağıdakilerden hangisinde Türkiye nüfusunun 1927 yılından günümüze kadar geçirdiği değişimler yanlış olarak verilmiştir?

A) Türkiye'nin nüfusu sürekli olarak artış göster miştir.

B) 1940-45 yılları arasında nüfus artış hızının azalmasının en önemli nedeni yurt dışına yapılan göçlerdir.

C) 1970-80 yılları arasında Türkiye'nin nüfus artış hızının azalmasının nedenleri arasında, kadınların iş hayatında daha fazla yer alması, devletin nüfus artış hızını azaltmaya yönelik politikası, halkın bilinçlenmesi gibi faktörlerde etkili olmuştur.

D) Günümüzde kırsal nüfus oranı kentsel nüfus oranından daha azdır.

E) 1950 yılından sonra tarımda makina kullanımının artmasına bağlı olarak kırsal yerleşmeler den kentlere doğru göç hareketi artış göstermiştir.

2.

Yukarıdaki işaretlenmiş alanların tümü hangi bölge sınıfı içinde yer alır?

A) Tropikal Yağmur Ormanları Bölgesi

B) Dağlık Bölgeler

C) Karasal İklim Bölgesi

D) Çöl İklimi Bölgesi

E) Subtropikal Çöl Bölgesi

Ahmet Burak Kargı © 2018

3.

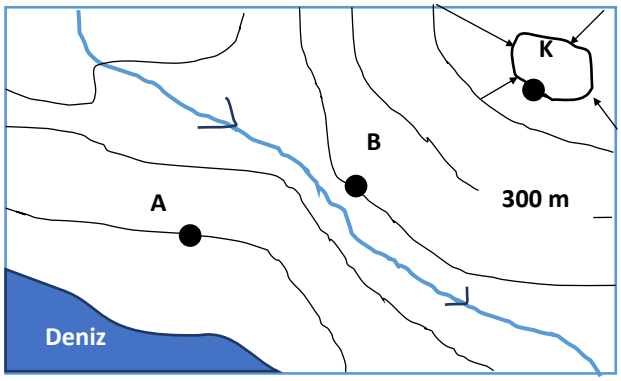

Yukarıdaki izohips haritasında verilen A, B ve K merkezlerinin yükseltisini gösteren grafik aşağıdakilerden hangisinde doğru olarak verilmiş tir?

A)

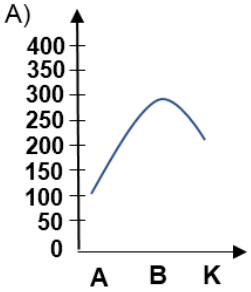

B)

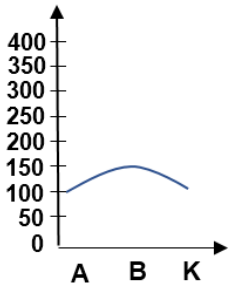

C)

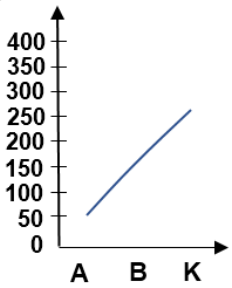

D)

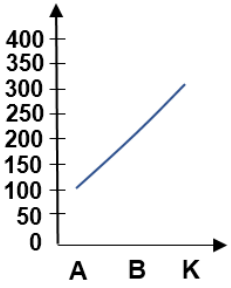

E)

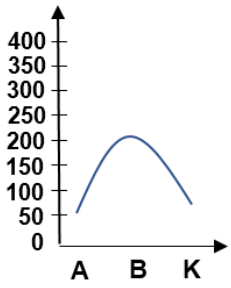

4.

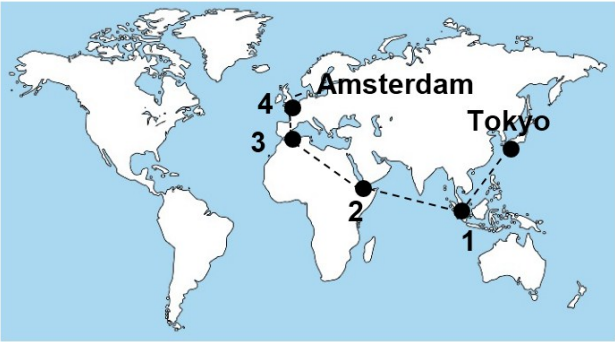

Tokyo'dan Amsterdam'a doğru yolculuğa çıkan bir yük gemisi yukarıdaki haritada numaralandırılan boğaz ve kanalardan geçmektedir.

No	Boğaz ve Kanal İsmi			
	1	**2**	**3**	**4**
I	Malaka Boğazı	Hürmüz Boğazı	Cebeli Tarık Boğazı	Kiel Kanalı
II	Malakka Boğazı	Badül Mendep Boğazı	Cebeli Tarık Boğazı	Korint Kanalı
III	Malakka Boğazı	Badül Mendep Boğazı	Cebeli Tarık Boğazı	Dover Boğazı
IV	Malakka Boğazı	Hürmüz Boğazı	Cebeli Tarık Boğazı	Dover Boğazı
V	Malakka Boğazı	Hürmüz Boğazı	Cebeli Tarık Boğazı	Korint Kanalı

Buna göre geminin geçtiği boğaz ve kanallar tablodaki numaralardan hangisinde doğru olarak <u>verilmiştir?</u>

A) I

B) II

C) III

D) IV

E) V

5.

Bir iş seyahati için 82° batı boylamında bulunan Havana'dan 60° doğu boylamında bulunan Sydney'e havayolu ile seyahat eden Sakıp Bey yolculuğunu aşağıdaki gibi planlamıştır.

Tarih	Saat	Yapılacak İş
23.05.2018	23:00	Havana 'dan Sydney'e uçuş
Yolculuk 12 Saat Sürecek		
24.05.2018	**….I….**	Sydney havaalanına varış (Sydney Ulusal Saatine
3 saat 32 dakika sonra otele varış		
…….II…….	**…III…**	**Otele Varış**

	I	II	III
A)	11:00	24.05.2018	01.00
B)	21.28	25.05.2018	01.00
C)	20.28	25.05.2018	23.00
D)	11.00	25.05.2018	01.32
E)	20.28	25.05.2018	00.00

Ahmet Burak Kargı © 2018

1.

Ülke	Birincil Ekonomik Faaliyet	İkincil Ekonomik Faaliyet	Üçüncül Ekonomik Faaliyet
I.	**%70**	**%5**	**%25**
II.	**%20**	**%25**	**%50**
III.	**%8**	**%22**	**%70**

Yukarıdaki tabloda üç ülkenin çalışan nüfusunun sektörel dağılışı verilmiştir.

Bu tablodaki bilgilerden yararlanılarak aşağıda kilerden hangisi yanlıştır?

A) I. ülkenin ithalatında tarımsal hammadde fazladır.

B) II. ülkenin sosyal sigorta giderleri I. ülkeye göre daha fazladır.

C) En fazla beyin göçü veren ülke I. ülkedir.

D) II. ülkedeki yaşlı nüfus oranı I. ülkeye göre da ha fazladır.

E) I. ülkenin tarımsal faaliyetlerinin üzerinde iklimin etkisi III. ülkeye göre daha fazladır.

Ahmet Burak Kargı © 2018

2. ve 3. Soruları aşağıdaki paragrafa göre yanıtlayınız.

Kapadokya çevresinde bulunan Peribacaları günümüzde önemli bir turizm merkezi halindedir.

Peribacalarını önemli bir turizm merkezi haline getiren faktörleri anlayabilmek için öncelikle bu özel topoğrafyanın oluşum sürecini ve tarihsel boyutunu bilmek gerekir.

Şimdilerde sönmüş birer yanardağ olan Erciyes dağı ile Hasan dağ 10 milyon yıl önce püskürmeye başlamış ve 2 milyon yıl öncesine kadar aktif bir şekilde faaliyetlerine devam etmiştir. Aktif yanardağların püskürmesi sırasında tüf, volkan külü, kil, kumtaşı ve bazalt içeren tabakalar oluşmuş bu durum bazı yerlerde sert bazı yerlerde ise daha yumuşak olan kayaç tabakasının sel suları ve akarsular ile aşınarak bugünkü görünümünü almasına neden olmuştur.

Kapadokya ilk insan yerleşmelerinin yaşandığı Paleotik dönemde oyulmaya başlanmış ve sığınak olarak kullanılmıştır. 3. yy'de ise ilk Hristiyanların dinlerini özgürce yaşamlarına olanak tanıyan bir sığınak ve ibadethane olarak kullanılmıştır.

Kapadokya günümüzde Unesco tarafından Dünya Kültür Mirası listesinde yerini alarak koruma altına alınmıştır. Bölge turizm faaliyetlerinin yanı sıra volkanik arazide verimli bir şekilde yetiştiriciliği yapılan patates tarımından gelir elde etmektedir.

2. **Yukarıdaki paragrafta aşağıda verilen coğrafyanın alt dallarından hangisi ile ilişkili bir bilgi verilmemiştir?**

A) Jeomorfoloji

B) Turizm Coğrafyası

C) Yerleşme Coğrafyası

D) Tarım Coğrafyası

E) Biyocoğrafya

3. Paragrafa göre;

I. Akarsu

II. Rüzgâr

III. Topoğrafyayı oluşturan kayaçların özellikleri

IV. Beşerî Faktörler

Yukarıdakilerden hangileri Kapadokya çevresinde bulunan peribacalarının oluşumunda doğrudan etkili olmuştur?

A) Yalnız II

B) I – II – III

C) II – III

D) I – III

E) II – III – IV

4.

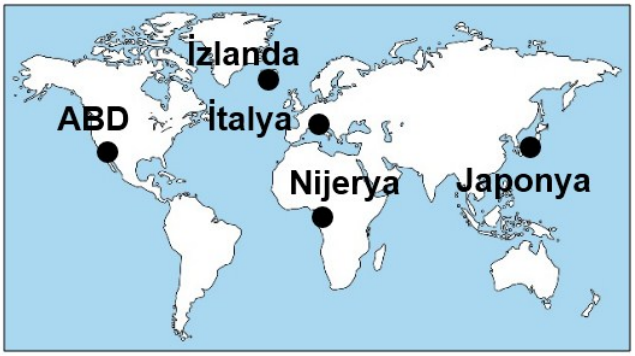

Dedesine ve anneannesine romatizma ağrılarına iyi gelmesi için bir haftalık kaplıca turizmi hediye etmek isteyen Burak'ın tatil için yukarıdaki ülkelerden hangisini seçmesi yanlış olur?

A) ABD

B) İzlanda

C) İtalya

D) Nijerya

E) Japonya

Ahmet Burak Kargı © 2018

4. Rüzgâr yüksek basınç alanlarından alçak basınç alanlarına doğru yatay yönlü hava hareketidir.

Meltem ve Muson rüzgarlarının oluşumunda,

I. Eksen eğikliği

II. Dünyanın kendi ekseni etrafındaki dönüşü

III. Yer şekilleri

IV. Kara ve denizlerin farklı ısınma özellikleri

gibi faktörlerin hangisi ortaktır?

A) Yalnız I

B) Yalnız IV

C) I – IV

D) II – III

E) III – IV

CEVAP ANAHTARI

	1	2	3	4	5
TYT Deneme -1	**B**	**A**	**B**	**C**	**E**
TYT Deneme -2	C	E	B	C	D
TYT Deneme -3	B	D	C	E	E
TYT Deneme -4	C	A	D	C	C
TYT Deneme -5	B	C	A	E	A
TYT Deneme -6	E	A	C	D	D
TYT Deneme -7	D	C	B	B	E
TYT Deneme -8	B	A	C	E	D
TYT Deneme -9	B	B	D	C	E
TYT Deneme -10	A	E	D	B	D

AYT DENEME SINAVI

Bu kısımda altışar sorudan oluşan 10 adet AYT coğrafya dersi deneme sınavı bulunmaktadır.

Kitapçıkta yer alan soruların ve çizimlerin tüm hakları **Ahmet Burak Kargı**'ya aittir. Kitapçığın tamamının ya da bir kısmının elektronik, mekanik, fotokopi ya da herhangi bir kayıt sistemiyle çoğaltılması, yayınlanması depolanması yasaktır.

Yazar: Ahmet Burak Kargı

Telefon: 0532 162 00 58

Eposta: ahmetburakkargi@gmail.com

1. Aşağıdaki haritada bazı enerji santrallerinin bulunduğu yerler verilmiştir.

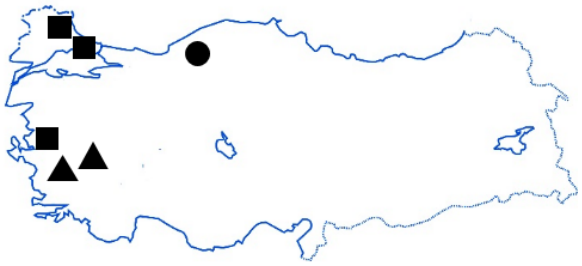

Buna göre işaretli yerlerde bulunan enerji santrallerinin elektrik enerjisini elde ettiği hammadde hangisinde doğru olarak hangisinde verilmiştir?

	▲	■	●
A)	Rüzgâr	Doğalgaz	Linyit
B)	Linyit	Rüzgâr	Jeotermal
C)	Jeotermal	Doğalgaz	Taşkömürü
D)	Hidroelektrik	Linyit	Taşkömürü
E)	Jeotermal	Doğalgaz	Linyit

2. Bazı endüstri kuruluşları kullandıkları hammaddeye çeşitli nedenlerden dolayı yakın olmak zorundadır. Örneğin; Şeker fabrikaları şeker pancarının çabuk bozulma özelliğinden dolayı şeker pancarı yetişen alanlara açılırken şeker pancarının yetişmediği yerlere açılmazlar.

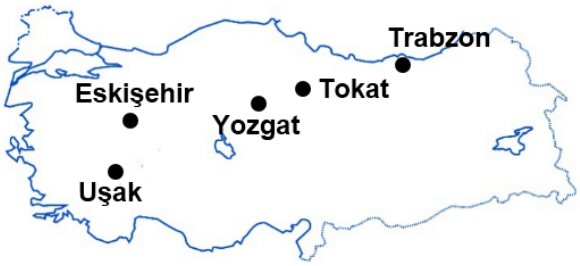

Buna göre haritadaki kentlerden hangisinde şeker fabrikası <u>bulunmaz?</u>

A) Yozgat

B) Eskişehir

C) Tokat

D) Uşak

E) Trabzon

Ahmet Burak Kargı © 2018

3. I. Dünya'nın en pahalı kanalıdır.

II. Atlas Okyanusunu ve Büyük Okyanusu birbirine bağlar.

III. Sıvıların dengesi kanunundan faydalanılarak gemiler kanal içinde yavaş yavaş yükseltilir ve aynı yöntemle diğer tarafa doğru indirilir.

Yukarıda özellikleri verilen kanal aşağıdakilerden hangisidir?

A) Süveyş Kanalı

B) Kiel kanalı

C) Panama kanalı

D) Korint Kanalı

E) Ümit Burnu

4. **Aşağıdaki tabloda bazı ülkelerin nüfuslarının ikiye katlanma süresi verilmiştir.**

Ülke	Nüfusun ikiye Katlanma süresi
ABD	96 yıl
Bangladeş	59 yıl
Japonya	-331 yıl
Kenya	27 yıl
Tanzanya	22 yıl

Buna göre bir ülkede ikiye katlanma süresine bakılarak,

I. Doğum oranlarına

II. Ülkenin gelişmişlik düzeyine

III. Yaşlı nüfus sayısına

IV. Nüfus miktarına

gibi bilgilerden hangisine ulaşılabilir?

A) Yalnız I

B) Yalnız II

C) I-III

D) II-III

E) II – IV

5. Yerkabuğu 7 tane büyük yaklaşık 20 adet küçük levhadan oluşmaktadır. Bu levhaların karşılaştığı alanlara levha sınırı ismi verilir. Levha sınırlarının olduğu yerlerde tektonizma, volkanizma etkilidir ayrıca deprem riski fazla sıcak ve su kaynaklarına sık rastlanır.

Aşağıdaki ülkelerden hangisinde sıcak su kaynaklarına daha fazla rastlanır?

A) Almanya

B) Güney Afrika Cumhuriyeti

C) Polonya

D) Filipinler

E) Danimarka

6.

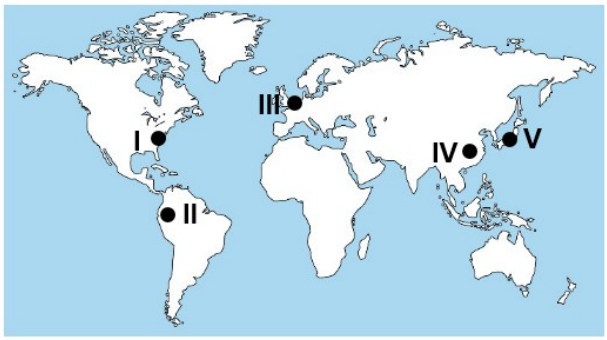

Nüfus yoğunluğunun ve sanayileşmenin fazla olduğu yerlerde hava kirliliği fazla görülmektedir. Haritada işaretli alanların hangisinde sanayileşmeye bağlı hava kirliliğine daha az rastlanılır?

A) I

B) II

C) III

D) IV

E) V

Ahmet Burak Kargı © 2018

1. Ülkeler ekonomik faaliyetlerini uzun ve kısa vadede verimli bir şekilde sürdürmek için bazı kalkınma planları hazırlarlar ve bu planlara göre ekonomik faaliyetlerini yürütürler. Türkiye Cumhuriyeti kurulduktan sonra günümüze kadar farklı dönemlerde farklı ekonomi politikaları uygulamıştır.

Aşağıdakilerden hangisi ülkemizde uygulanan ekonomi politikalarının genel amaçlarından birisi değildir?

A) Son 30 yıllık dönemde ekonomide dışa açılma sürecini başlatarak, ülke ekonomisini küresel ve bölgesel etkilere daha açık hale getirmek.

B) Dengeli bir gelir dağılımı oluşturmak.

C) Doğal ve beşerî kaynakları en verimli şekilde kullanmak.

D) Ekonomide özel sermayenin etkisini azaltarak devletin etkisini arttırmak.

E) Büyümeyi ve Kalkınmayı hızlandırmak.

2. Türkiye jeopolitik konumunun bir sonucu olarak doğalgaz ve petrol gibi enerji kaynakları bakımından zengin Ortadoğu ve Orta Asya ülkeleri ile enerji tüketiminin fazla olduğu gelişmiş Avrupa ülkeleri arasında doğal bir köprü görevi görmektedir. Bu konumundan dolayı çeşitli enerji nakil projeleri Türkiye sınırları üzerinden geçmektedir.

Aşağıdaki enerji nakil projelerinden hangisi yukarıda bahsedilen şekilde bir geçiş projesi özelliği taşımaktadır?

A) Mavi Akım projesi

B) TANAP projesi

C) BTC boru hattı projesi

D) Kerkük-Yumurtalık boru hattı projesi

E) Yumurtalık – Kırıkkale boru hattı projesi

Ahmet Burak Kargı © 2018

3. Atmosferde %78 oranında azot bulunur. Ancak atmosferde gaz halinde bulunan bu azot canlılar tarafından doğrudan kullanılamaz. Azotun canlılar tarafından kullanılabilmesi için bazı aşamalardan geçmesi gerekir.

Azot döngüsünü sırasıyla veren aşağıdaki tabloda sıralamada bir yanlışlık yapılmıştır.

	Gerçekleşen Olay
I	Azot, besin zinciri ile bitkilerden otçullara otçullardan da etçillere geçer.
II	Nitratlar, yağışlarla toprağa girerek bitkiler tarafından kullanılır
III	Toprakta ve bazı bitkilerin köklerinde bulunan azot bağlayıcı bakteriler sayesinde bitkiler nitratları alır ve yapılarına katar.
IV	Atmosferde yıldırım ve volkanik faaliyetler sırasında ortaya çıkan elektrik deşarjları sonucunda azot, oksijen ile birleşerek nitrit ve nitratlara dönüşür.
V	Ölen bitki ve hayvanlar, ayrıştırıcılar tarafından parçalanır. Mikroorganizmalar azotu nitrit ve nitrata dönüştürür

Buna göre aşağıdakilerden hangi ikisi yer değiştirirse tablodaki azot döngüsü sıralaması doğru olur?

A) I – IV

B) I – II

C) II – III

D) III – IV

E) IV – V

4. Ruhr havzası Avrupa'daki sanayi bölgeleri arasında sanayi devriminin tüm aşamalarının geçekleştiği tipik bölgelerden birdir. Sanayileşme süreci 18. yüzyılda havzada bulunan Oberhausen'da bir demir fabrikasının kurulmasıyla başladı. Almanya'da sanayinin gelişmesinin temelinde havzanın rolü büyüktür.

Almanya'da sanayinin ruhr havzasında yoğunlaşmasında;

I. Demir yataklarının fazla olması

II. Maden kömürü yataklarının bulunması

III. Tüketimin fazla olması

gibi faktörlerden hangileri daha etkili olmuştur?

A) Yalnız I

B) Yalnız II

C) Yalnız III

D) I – III

E) I – II – III

5. Üretimin etkileyen faktörlerden biride tüketimin fazla olmasıdır. Tüketimin fazla olduğu yerlerde buna bağlı olarak üretimde artış göstermektedir.

Aşağıdakilerden hangisi yukarıda bahsedilen duruma örnek olabilir?

A) Marmara bölgesinde kümes hayvancılığının gelişme göstermesi

B) Ege bölgesinde zeytin yağı fabrikalarının yaygın olması

C) Eskişehir'de şeker fabrikasının bulunması

D) Karadeniz'de balıkçılığın yaygın olması

E) Marmara gölgesinde ipek böcekciliğinin gelişmiş olması

Ahmet Burak Kargı © 2018

6. Türkiye'de genellikler kuzeyden esen rüzgarlar sıcaklığı azaltırken güneyden esen rüzgarlar sıcaklığı artırmaktadır. **Bu durum Türkiye'nin;**

I. Kuzey Yarım Kürede olması

II. Orta Kuşakta olması

III. Üç tarafının denizlerle çevrili olması

IV. Yer şekillerinin çok engebeli olması

özelliklerinden hangileriyle ilgilidir?

A) Yalnız I

B) Yalnız II

C) I – II

D) II – III

E) III – IV

1. Dünyanın yedi harikası kabul edilen eserlerden yalnızca Keops Piramidinin günümüzde ayakta kalması yedi harikanın yeniden belirlenmesi ihtiyacını ortaya çıkarmıştır. Yeni yedi harika Portekiz'in Lizbon kentinde 07.07.07 tarihinde halk oylaması ile yeniden belirlenmiştir.

Eski listede Türkiye'de bulunan iki eser yeni belirlenen dünyanın yedi harikası listesinde yer almamıştır. Bu iki eser aşağıdakilerden hangisidir?

A) Rodos Heykeli – Artemis tapınağı

B) Nemrut dağı- Sümela manastırı

C) Halikarnas Mozolesi-Artemis tapınağı

D) Petra Antik Kenti- Machu Picchu Antik Kenti

E) Babilin Asma Bahçeleri – İskenderiye Feneri

2. Aşağıdaki haritada bazı bölgeler taranarak gösterilmiştir.

Buna göre;

I. Dağların uzanış doğrultuları

II. Yağış tipleri

III. Yıllık sıcaklık farkları

IV. Limanların hinterlandı

gibi özelliklerinden hangileri haritada taranarak verilmiş yerlerin ortak özelliklerinden <u>değildir?</u>

A) I

B) I-II

C) II-IV

D) I-III

E) I-IV

Ahmet Burak Kargı © 2018

3. Şehirler yaptıkları ekonomik faaliyetlere göre çeşitli ekonomik fonksiyonlar alırlar.

Buna göre haritadaki şehirlerden hangisinin aldığı ekonomik fonksiyon türü diğerlerinden daha farklıdır?

A) Tokyo

B) Marsilya

C) Hamburg

D) Amsterdam

E) Roma

4. Çalı biyomu Kuzey ve Güney Yarım Kürelerde yazları sıcak ve kurak geçen, kışları ılık ve yağışlı olan yaz sıcaklık ortalamasının 29-30 °C olduğu kış sıcaklık ortalamasının 10-12°C olduğu Akdeniz iklim bölgelerinde yaygın olarak görülür.

Genellikle Akdeniz iklim kuşağının klimaks bitki türü olan kızılçam ağaçlarının tahrip edildiği yerlerde görülür.

Çalı biyomunda bulunan bitkiler yüksek yaz sıcaklığına ve kuraklığına dayanıklı türlerdir. Zeytin, yaban mersini, zakkum, harnup (keçiboynuzu), kocayemiş çalı biyomunda bulunan bitki türleridir. Bu bitkilerin yaprakları kadifemsi kaygan ve sert, kök sistemleri ise gelişmiştir.

Çalı biyomunda bulunan bitki türlerinin yapraklarının kadifemsi, kaygan ve sert, kök sistemlerinin gelişmiş olmasının nedenleri arasında,

I. Çalı biyomunun bulunduğu alanlardaki top rak tipi

II. Yazları sıcak ve kurak geçen Akdeniz ikliminde bitkilerin su kaybının azaltması

III. Yıllık sıcaklık farkının çok olması yüzünden bitkilerin bu sıcaklık farkında yaşayabilmesi

IV. Kış yağışlarının 1000-1200 mm civarında olması

gibi durumlardan hangisinin etkisi yoktur?

A) I ve II

B) Yalnız II

C) Yalnız III

D) I – II – IV

E) I – III – IV

5. Orta Afrika'da Gine körfezine kıyısı bulunan ve Nijer, Benin, Kamerun ve Çad ile komşu olan Nijerya zengin doğal kaynaklarına rağmen gelişememiş ülkelerden biridir. Dünya'nın en yoksul ülkelerinden biri olan Nijerya'da 2002 yılında satın alma gücü paritesine göre kişi başına gelir 860 dolardır.

Nijerya'nın gelişememesinde aşağıdakilerden hangisi etkili olmamıştır?

A) Altyapı yetersizliği

B) Petrol sektörü dışındaki yatırımların yetersiz kalması

C) Düşük tüketici gelirleri

D) Tarımda makine kullanımının yaygınlaşması

E) Sanayi sektörünün gelişmesi için gerekli yatırımların yapılmaması

6. Aşağıdaki haritada bazı alanlar numaralandırılarak gösterilmiştir.

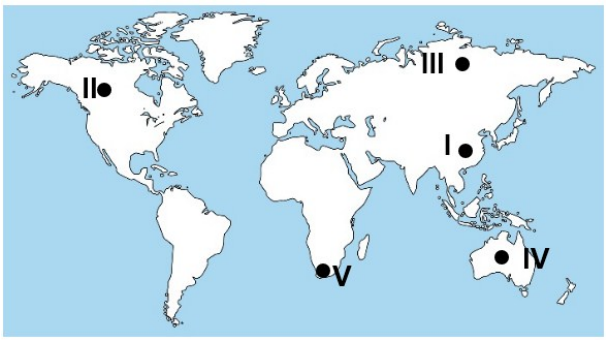

Bu alanlarda bulunan ham madde kaynaklarıyla ile ilgili olarak aşağıdakilerden hangisi yanlıştır?

A) I numaralı alan zengin taş kömürü yataklarına sahiptir.

B) II numaralı alan zengin ve gür ormanları nedeniyle Dünya'nın önemli orman üretim alanlarından biridir.

C) III numaralı alan dünyanın en zengin tatlı su kaynaklarından birine sahiptir.

D) IV numaralı alanda zengin petrol yatakları bulunur.

E) V numaralı alanda Dünya'nın en önemli altın rezervlerine sahiptir.

Ahmet Burak Kargı © 2018

1. Coğrafya öğretmenliği 4. Sınıf öğrencisi olan Kadir yaz tatili için yaptığı seyahatin ilk durağında Ladinler ve geniş yapraklı ağaç türleri, ikinci durağında Sarıçam ormanları daha sonra Kızılçam ve Sığla ormanları ile karşılaştığını belirtmiştir.

Kadir'in seyahat ettiği bölgeler aşağıdaki haritalardan hangisinde sırasıyla doğru olarak verilmiştir?

A)
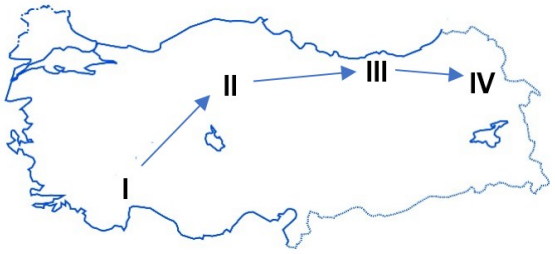

B)
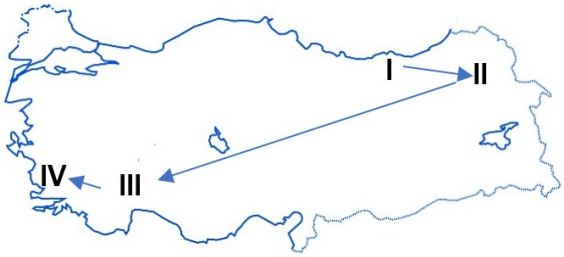

C)
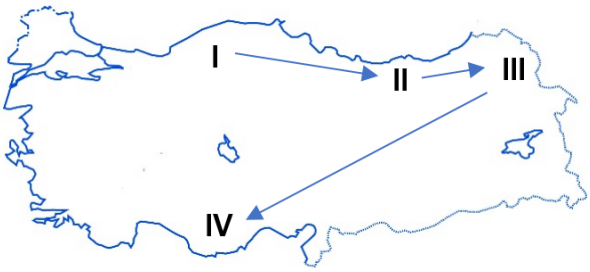

D)
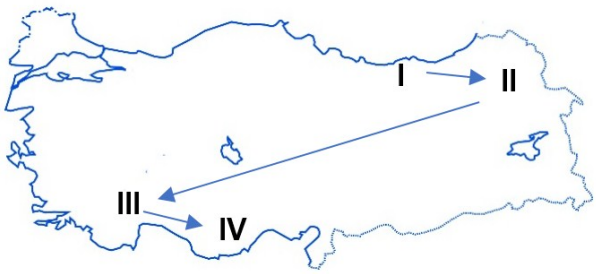

E)
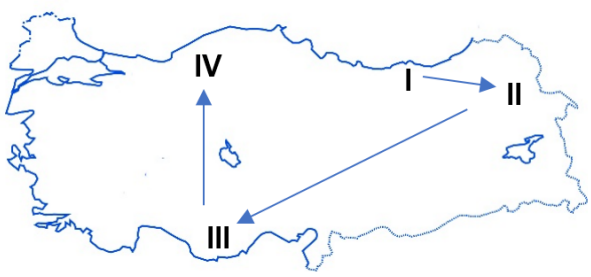

2. Sanayinin gelişmesinde etkili olan faktörlerden biriside ham maddeye yakınlıktır. Ham maddesine yakın olan sanayi tesisleri avantajlı durumdadırlar. Ancak bazı sanayi kuruluşları ham maddesine yakın olmamasına rağmen sanayiyi etkileyen tüketici nüfusa yakınlık ve ulaşım koşullarının gelişmiş olması gibi nedenlerle gelişme gösterebilmiştir.

Aşağıdakilerden hangisi bu duruma örnek <u>gösterilemez?</u>

A) İstanbul'da hazır giyim ve teksti sanayisinin gelişmesi

B) Turhal'da şeker fabrikasının açılması

C) Kayseri'de mobilya sanayisinin gelişmesi

D) İzmit'te otomotiv sanayisinin gelişmesi

E) İzmir'de süt ve süt ürünlerinin sanayisinin gelişme göstermesi

Ahmet Burak Kargı © 2018

3. Aşağıdaki haritada numaralarla gösterilmiş beş alan ve bu alanlardan dördüne ait nüfus özellikleri verilmiştir.

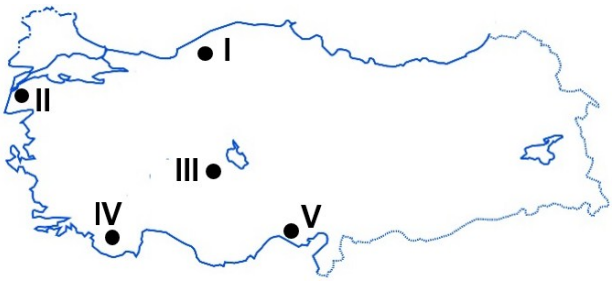

- Tarım için uygun ılıman iklim koşullarına ve sade yer şekillerine sahip olmasına rağmen ulaşım yollarına çok sapa kalması yüzünden seyrek nüfuslanmıştır.
- Yer şekilleri sade olmasına rağmen yağışın çok az olmasından dolayın su kaynaklarının kısıtlı olması seyrek nüfuslanmasına neden olmuştur.
- Yer şekilleri engebeli olmasına rağmen bölgede çıkarılan yer altı kaynakları ve buna bağlı olarak gelişen sanayi kuruluşları yüzünden etrafına göre sık nüfuslanmıştır.
- Ilıman bir iklim kuşağında olmasına rağmen karstik ve engebeli arazisi yüzünden nüfus seyrektir.

Buna göre yukarıda kaç numara ile gösterilen alana ait nüfus özelliği <u>verilmemiştir?</u>

A) I B) II C) III D) IV E) V

4. Türkiye'de demir yolu taşımacılığı yer şekillerinin çok engebeli olması ve yükselti yüzünden yeterince gelişememiştir. Bazı kent merkezlerinde demir yolu bağlantısı bulunurken, bazı kent merkezlerinde demiryolu bağlantısı bulunmaz.

Aşağıdakilerden hangisinde yerşekillerinin engebeli olması yüzünden demir yolu bağlantısı bulunmaz?

A) Trabzon

B) Erzurum

C) Sivas

D) Zonguldak

E) Aydın

Ahmet Burak Kargı © 2018

5. Aşağıdaki haritada bazı biyomların yerleri numaralandırılarak gösterilmiştir.

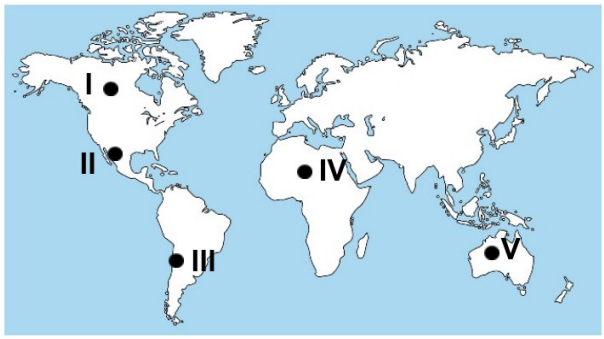

Bu biyomların genel özellikleri düşünüldüğünde aşağıdakilerden hangisinin diğer biyomlardan farklı olduğu söylenebilir?

A) I

B) II

C) III

D) IV

E) V

6. Canlıların yaşamsal faaliyetlerini yürütmek için ihtiyaç duydukları enerjinin kaynağından gelerek bir canlıdan başka bir canlıya aktarılmasına enerji akışı denilmektedir.

Aşağıdakilerden hangisi enerji akışı ile ilgili yanlış bir bilgidir?

A) Güneş, ekosistemdeki enerji akışında temel enerji kaynağıdır

B) Enerji piramitlerinde piramidin üst katına doğru çıkıldıkça birey sayısı azalır.

C) Ekosistemlerde enerjinin %90 'ını ayrıştırıcılar kullanır

D) Ölen canlılarda bulunan enerjinin ayrıştırıcılar tarafından açığa çıkarılarak güneşe dönmesi ile enerji döngüsü tamamlanır.

E) Enerji piramitinde enerjinin %10'u üst basamağa aktarılır.

1. 21 Mart tarihinde X merkezinde dikilen çubuğun saat 12.00'deki gölgesi ile çubuğun boyu aşağıda gösterilmiştir.

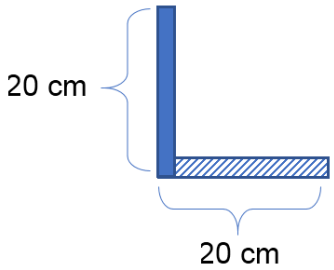

Buna göre X merkezinin dünya üzerindeki yerini gösteren çizim aşağıdakilerden hangisidir?

A)
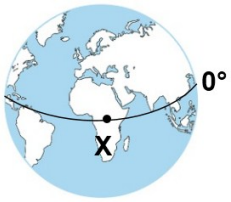

B)

23° 27 ' K

C)

45° K

D)

23° 27 ' G

E)

66° 33 ' K

2. Türkiye'de bazı bölge ve yörelerin az gelişmesi nedeniyle devlet bu yerlerde çeşitli bölgesel kalkınma planları oluşturmuştur.

Bölgesel kalkınma planları oluşturulurken bölgelerin gelişmeme sebepleri tespit edilir ve tespit edilen bu olumsuzlukların giderilmesi için çözüm önerileri hazırlanıp uygulamaya geçirilir.

Aşağıdakilerden hangisi Türkiye'de uygulanan bölgesel kalkınma projelerinin hedefleri arasında <u>yer almaz?</u>

A) Gelişmiş diğer bölgeler ile gelişmişlik seviye farkını en aza indirmek

B) Sürdürülebilir bir kalkınma ortamı yaratmak

C) Otoyol, havaalanı gibi ulaşım sistemlerini geliştirmeye yönelik yatırım yapmak

D) Yabancı yatırımcıları bölgeye çekmek

E) İşsizliği azaltarak bölge dışına göçü önlemek

3. Beşeri faaliyetler doğal sistemler ile karşılıklı etkileşim halindedir. Bazı doğal koşullar beşeri faaliyetler üzerinde olumsuz etkiye sahip olsada insanın çabaları sonucu doğal faktörlerin olumsuz etkisi aşılabilmiştir.

Bu duruma,

I. Alp dağlarının önemli bir kış turizmi merkezi haline gelmesi

II. Amazon havzasında yerleşmenin az olması

III. Amerika'daki Central Valley projesi ile eski bir çöl olan bölgenin verimli bir tarım alanına dönüşmesi

IV. Avustralya'nın iç kesimlerinde sanayinin gelişme göstermemesi

Yukarıdakilerden hangileri örnek olabilir?

A) I – II

B) I – III

C) II – III

D) II – IV

E) I – II – IV

Ahmet Burak Kargı © 2018

4. Aşağıdaki haritada bazı alanlar numaralandırılarak koyu renk ile gösterilmiştir.

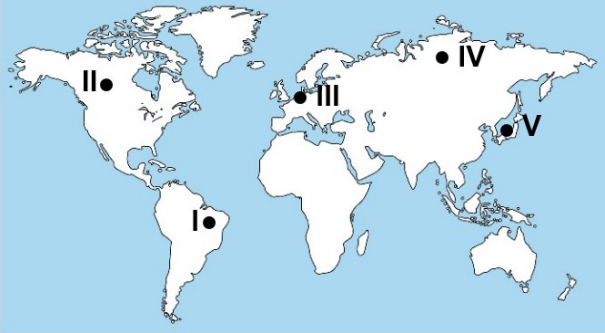

Bu alanlardaki doğal kaynak ve yapılan ekonomik faaliyetler ile ilgili olarak aşağıdakilerden hangisi yanlıştır?

A) I numaralı alanda zengin petrol kaynaklarına bağlı olarak petro – kimya endüstrisi gelişmiştir.

B) II numaralı bölgenin sahip olduğu gür ormanlar nedeniyle kağıt üretimi ve ihracatı fazla dır.

C) III numaralı bölgede bulunan ülkenin sahip olduğu zengin taşkömürü yatakları bu ülkenin Dünya'nın en önemli demir – çelik üreticilerinden birisi olmasında önemli bir paya sahiptir.

D) IV numaralı bölgede bulunan tayga ormanları bölgeyi önemli bir kereste ve ormancılık ürünleri üretim merkezi haline getirmiştir.

E) V numaralı bölgenin sahip olduğu taşkömürü yatakları nedeniyle Dünya'nın en önemli teknoloji ülkesi haline gelmiştir.

Ahmet Burak Kargı © 2018

5. İnsani gelişme endeksi ülkelerin gelişmişlik düzeyini gösteren bir ölçümdür. Birleşmiş milletler tarafından geliştirilen insani gelişim endeksi ülkelerin beşeri ve ekonomik özellikleri göz önünde bulundurularak hesaplanır. Ülkeler 1 tam puan üzerinden derecelendirilir.

Aşağıdaki haritada bazı ülkelerin 2017 yılına ait insani gelişim endeksleri verilmiştir.

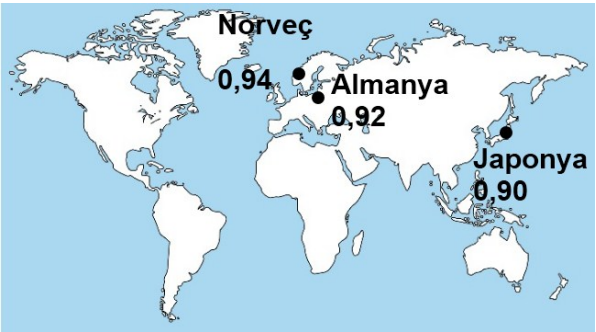

Buna göre, ülkelerin insani gelişme endeksinin yüksek olmasında aşağıdakilerden hangisinin etkisinin daha az olduğu söylenebilir?

A) Bebek ölüm oranlarının az olması

B) Ortalama insan ömrünün uzaması

C) Okuryazar oranlarının yükselmesi

D) İşsizlik oranının azalması

E) Genç nüfusun artması

6. Aşağıdaki haritada farklı yüzey şekillerine sahip alanlar verilmiştir. **Buna göre;**

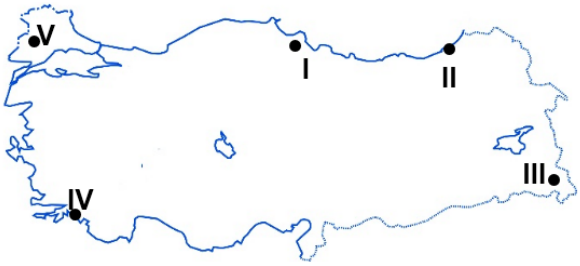

Haritada işaretli alanların hangisinde yer şekilleri özelliklerinden dolayı kara ve demir yolu taşımacılığında yol yapım, bakım ve onarım maliyetleri daha az olacaktır?

A) I – II

B) I – III

C) II – IV

D) I – V

E) II – V

1. Su, karbondioksit, azot, oksijen gibi inorganik maddelerin sürekli olarak cansız ortamdan alınıp besin zinciriyle canlılar arasında aktarıldıktan sonra alındığı ortama tekrar bırakılmasına madde döngüsü denir.

Doğada atmosfer, hidrosfer, litosfer arasında gerçekleşen karbon döngüsü sırasında karbondioksit çeşitli olaylar sırasında karbondioksit üretimi ve karbondioksit tüketimi gerçekleşir. Buna göre;

I. Karbonatlı kayaçların ayrışması

II. Ölen canlıların çürümesi

III. Deniz hayvanlarının kabuklarının oluşması

IV. Canlıların petrol, kömür gibi fosil yakıtlara dönüşmesi

gibi olaylardan hangileri sırasında karbondioksit üretimi gerçekleşir?

A) I – II

B) I – III

C) II – III

D) I – IV

2. **Aşağıdakilerden hangisi Doğu Karadeniz Kalkınma Projesi (DOKAP) şehirlerinden birisi değildir?**

A) Sinop

B) Bayburt

C) Gümüşhane

D) Trabzon

E) Giresun

3. Bazı enerji kaynaklarında klimatik nedenlerden ötürü enerji üretiminde dalgalanmalar yaşanabilmektedir.

I. Çatalağzı

II. Kralkızı

III. Sarayköy

IV. Demirköprü

gibi enerji santrallerimizden hangileri bu duruma örnek gösterilebilir?

A) I – II

B) I – III

C) II – III

D) II – IV

E) I – IV

Ahmet Burak Kargı © 2018

4. Çalı biyomu yazları sıcak ve kurak, kışları ise ılık ve yağışlı geçen bölgelerde görülür. **Buna göre,**

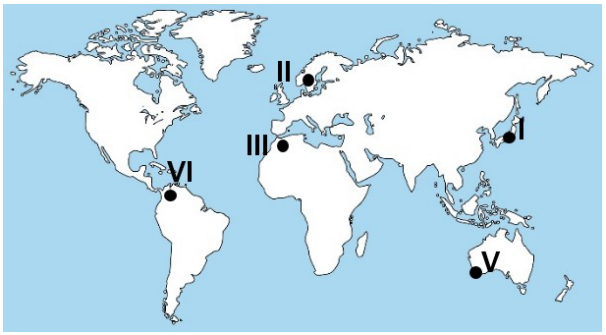

Haritada işaretlenen yerlerden hangilerinde çalı biyomuna rastlanır?

A) Yalnız I

B) I – III

C) II – III

D) III – IV

E) III – V

5. Kuru tarım yöntemi ilkel (ekstansif) tarım yöntemlerinden birisidir. Bu tarım yönteminde suya az ihtiyaç duyan tarım ürünleri seçilerek ekim ve hasat gerçekleştirilir. Ürünler ihtiyaç duydukları suyu doğal yollarla yani kar erimeleri ve yağışlarla sağlarlar.

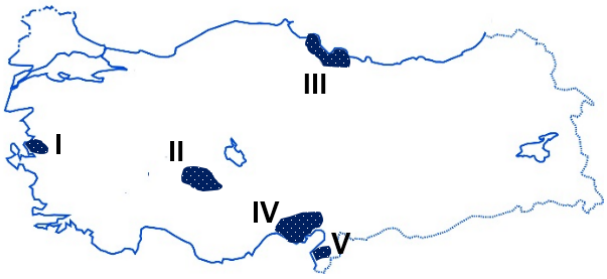

Haritada işaretli alanlarında hangisinde yukarıda bahsedilen yöntemlerle tarım yapılmaktadır?

A) Yalnız I

B) Yalnız II

C) I – II

D) III – IV

E) IV – V

Ahmet Burak Kargı © 2018

6. Aşağıdaki haritada Türkiye'nin farklı yörelerinden bazı alanlar koyu renk ile gösterilmiştir

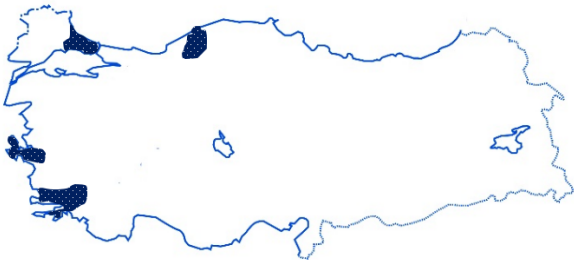

Bu yerlerin doğal özellikleri göz önünde bulundurulduğunda aşağıdakilerden hangisi işaretli alanlar için ortak bir bölge sınıflandırılmasıdır?

A) Tarım Bölgeleri

B) Sanayi Bölgeleri

C) Turizm Bölgeleri

D) Enerji Üretim Bölgeleri

E) Orman Bölgesi

1. Dünya'daki tatlı su miktarı kısıtlıdır. Nüfus artışına bağlı olarak artan su talebiyle birlikte su kaynakları; miktar, kalite ve kullanım açısından ciddi sorunlarla karşı karşı karşıyadır. Dünya nüfusunun yaklaşık %20'sine karşılık gelen 1,2 milyar insan yeterli içme suyundan yoksundur. Ayrıca 2,3 milyar insanda sağlıklı suya erişememektedir. Dünya meteoroloji örgütüne göre 2025 yılından itibaren üç milyardan fazla insan susuzluk ile karşı karşıya kalacaktır.

Buna göre,

I. Yenilenebilir kaynak miktarının azlığı

II. Yanlış ve aşırı su kullanımı

III. Akarsular üzerinde kurulan hidroelektrik santraller

gibi nedenlerden hangileri Dünya'daki su kıtlığının ana nedenleri arasındadır?

A) Yalnız I

B) Yalnız II

C) Yalnız III

D) I – II

E) I – II – III

2. Ülkemizde dağların güney yamaçlarında kalan alanlarda tarım ve yerleşme faaliyetleri açısından araziden faydalanma oranının daha yüksek olduğu görülmektedir.

Aşağıdakilerden hangisi bu durumun nedenidir?

A) Güney yamaçlardaki topoğrafya özellikleri

B) Güney yamaçların klimatolojik özellikleri

C) Güney yamaçların litolojik özellikleri

D) Kuzey yamaçlardaki jeolojik özellikler

E) Güney yamaçlardaki delta ovaların varlığı

3. Güneydoğu Anadolu Projesi (GAP), Güneydoğu Anadolu Bölgesi'nin sahip olduğu kaynakları değerlendirerek, bu yörede yaşayan insanlarımızın gelir düzeyini ve yaşam kalitesini yükseltmeyi, bölgeler arası farkları gidermeyi ve ulusal düzeyde ekonomik gelişme ve sosyal istikrar hedeflerine katkıda bulunmayı amaçlayan ve uluslararası alanda marka değeri olan bir bölgesel kalkınma projesidir. Tüm bunların yanı sıra GAP bir sulama projesidir ve sulama hedeflerinin yaklaşık olarak %45'i gerçekleşmiştir.

GAP 'ın hedeflerinin büyük oranda gerçekleşmesi durumunda aşağıdakilerden hangisinde azalma görülecektir?

A) Mısır ve pamuk gibi endüstriyel tarım ürünlerinde

B) Turizm gelirlerinde

C) Elektrik üretiminde

D) İntansif tarım yöntemlerini uygulayan diğer bölgeler ile arasındaki gelişmişlik farkında

E) Bölgenin milli gelire katkısında

Ahmet Burak Kargı © 2018

4. Aşağıdaki tabloda Japonya'nın 1960, 1985 ve 2014 yıllarındaki nüfusunun yaş grubu dağılımı ve bu yıllardaki yıllık ortalama nüfus artış hızı oranı verilmiştir.

Yıllar	Yaş Grupları (Milyon Kişi)			Yıllık Ortalama Artış Oranı (%)
	0-14	15-64	65 +	
1960	28,5	60,0	5,3	0,92
1985	21,5	68,1	10,6	0,67
2014	15,9	75,7	33,5	0,05

Buna göre,

I. 1960 yılındaki 0-14 yaş grubundaki nüfus 2014 yılındaki yaşlı nüfus oranından daha az dır.

II. Verilen yıllarda Japonya'nın nüfus artış hızı sürekli azalmıştır.

III. 2014 yılındaki çalışma çağındaki nüfus miktarı aynı yıldaki çocuk bağımlı nüfus miktarından daha fazladır.

gibi yargılardan hangilerine ulaşılabilir?

A) Yalnız I

B) Yalnız II

C) I – II

D) II – III

E) I – II – III

5. Haritada Dünya üzerinde farklı iklimlere sahip farklı yerler numaralara işaretlenmiştir.

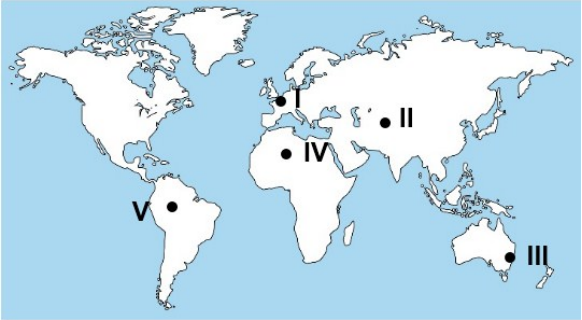

Buna göre haritadaki numaralı alanlar sahip oldukları iklimlere göre gruplandırılırsa hangisi grubun dışında kalır?

A) I B) II C) III D) IV E) V

Ahmet Burak Kargı © 2018

6. NATO (Kuzey Atlantik Antlaşması Örgütü) İkinci Dünya Savaşı'ndan sonra Rusya'ya karşı ABD 'nin desteğini alarak Avrupa'nın güvenliğini sağlamak amacıyla kurulmuş siyasi ve askeri bir örgüttür (**I**). NATO 9 Nisan 1949 yılında Washington'da kurumuştur (**II**). Üye olan ülkeler kollektif bir çalışma için bir araya gelmeyi taahhüt etmişlerdir. Bu ülkelerin herhangi birinin toprak bütünlüğü, siyasi bağımsızlığı ve güvenliği tehlikede olduğunda veya üye ülkelerden birine yapılan saldırıda tüm üye ülkelerin birlikte hareket etmesi kararlaştırılmıştır (**III**). Türkiye bu örgüte henüz üye olmamıştır (**IV**).

Yukarıdaki paragrafta NATO (Kuzey Atlantik Antlaşması Örgütü) ile ilgili verilen bilgilerden hangileri yanlıştır?

A) Yalnız I

B) Yalnız II

C) I – IV

D) I – III

E) Yalnız IV

1. **I.** Sarı Irmak ve Gök Irmak çevresinde kurul muştur.

II. 12 Hayvanlı Türk Takvimini kullanmışlardır.

III. Kağıt, mürekkep, barut ve pusula gibi önemli buluşların sahibi oldular.

Yukarıda bazı özellikleri verilen medeniyet aşağıdakilerden hangisi olabilir?

A) Çin medeniyeti

B) Türk medeniyet

C) Hint medeniyeti

D) İnka medeniyeti

E) Mezopotamya medeniyetleri

2. Aşağıdaki haritada Türkiye'de pirincin yetiştirildiği alanlar taranarak gösterilmiştir

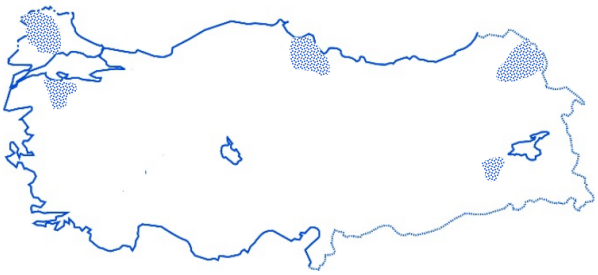

Buna göre pirincin bu alanlarda yetiştirilme sinde

I. Tüketici nüfusun fazla olması

II. Su kaynaklarına yakınlık

III. İklim özellikleri

IV. Ulaşım imkanlarının gelişmiş olması

gibi faktörlerden hangisi daha fazla etkili ol muştur?

A) Yalnız I

B) Yalnız II

C) I – II

D) II – III

E) III – IV

Ahmet Burak Kargı © 2018

3. Ülkelerin çalışan nüfuslarının ekonomik faaliyet kollarına göre dağılışı gelişmişlik göstergelerinden birisidir.

Aşağıdaki tabloda K, L ve M ülkelerinin çalışan nüfuslarının ekonomik faaliyet kollarına göre dağılımı verilmiştir.

Ülkeler	Birincil ekonomik faaliyet	İkincil ekonomik faaliyet	Üçüncül ekonomik Faaliyet
K	%9	%30	%61
L	%35	%10	%50
M	%51	%13	%36

Yalnızca tablodaki bilgilere göre K,L ve M ülkeleri ile ilgili aşağıdakilerden hangisine kesin olarak ulaşabiliriz?

A) Yaşlı nüfus miktarının en az olduğu ülke K ülkesidir.

B) Tarımdan en çok gelir elde eden ülke M ülkesidir.

C) İşsiz sayısının en fazla olduğu ülke M ülkesidir.

D) Ülkelerin gelişmişlik düzeyleri birbirlerinden çok farklıdır.

E) Ülkelerin kalkınma hızları ve nüfus artış hızları birbirlerine paraleldir.

4. Aşağıdaki haritada Dünya üzerinde bazı alanlar işaretlenerek belirlenmiştir.

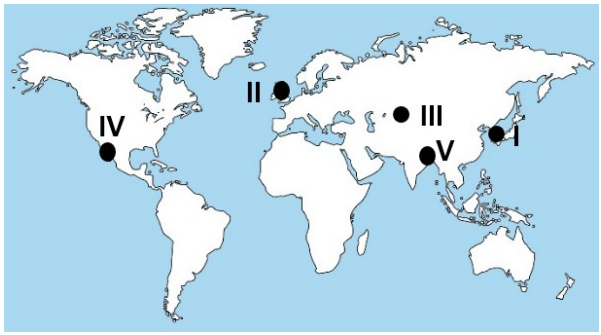

Bu alanlarda gerçekleşebilecek ekstrem olaylar aşağıdakilerden hangisinde yanlış verilmiştir?

A) I – Tsunami

B) II – Kasırga

C) III – Kuraklık

D) IV – Deprem

E) V – Sel ve su taşkını

5. Ülkemizde yer şekillerinin ve iklimlerin çeşitli olmasından dolayı arazi kullanımıda çeşitlenmiştir

I. Dilovası, Çayır ova (Kocaeli), İzmit, Çukurova'nın Adana ile Mersin arasında kalan kesimi gibi tarıma uygun arazilerde sanayi faaliyetlerinin geliştirilmesi

II. Volkanik sahalardaki ova ve platolarda verimli toprakların etkisiyle tarımsal faaliyetlerin geliştirilmesi.

III. Kar kalınlığının fazla ve topoğrafik şartların uygun olduğu bazı dağlık alanlarda kış turizmine uygun faaliyetlerin geliştirilmesi.

IV. Doğu Karadeniz gibi yer şekillerinin engebeli olduğu aynı zamanda doğal güzelliklere sahip birçok yerin mesire alanı olarak veya yayla turizmi amacıyla kullanılması

gibi örneklerden hangisi doğru arazi kullanımına örnek <u>gösterilemez?</u>

A) Yalnız I

B) Yalnız II

C) I – II

D) II – III

E) III – IV

Ahmet Burak Kargı © 2018

6. 21 Aralık tarihinde Londra'da kış mevsimi başlarken aynı tarihte Avustralya'nın Sydney kentinde yaz mevsimi başlamaktadır.

Bu durumun oluşmasındaki temel faktör aşağıdakilerden hangisinin oluşmasında da etkili olmuştur?

A) Yerçekiminin ekvatorda fazla olması

B) Kuzey yarım küredeki sonbahar ekinoksunda 2 günlük gecikmenin yaşanması

C) Gece ve gündüzlerin uzayıp kısalması

D) Kutuplarda sıcaklığın düşük olması

E) 30° ve 60° enlemlerinde meydana gelen sürekli yüksek basınç alanlarının oluşmasında

1. Türkiye'de bulunan dağ sıralarının genellikle batı doğu doğrultusunda uzanmasında;

I. Dağları oluşturan levhaların hareket yönü

II. Deprem kuşaklarının uzanışı

III. Volkanik sahaların dağılışı

IV. Jeosenklinallerdeki tortulların özelliği

gibi özelliklerden hangileri etkili olmuştur?

A) Yalnız I

B) Yalnız II

C) I – II

D) II – III

E) III – IV

2. Aşağıdaki haritada UNESCO tarafından Türkiye'de Dünya Kültür Mirası listesine alınan bazı yerler verilmiştir. Koruma altına alınan yerlerden bazıları doğal güzellikleri, bazı alanlar ise kültürel değerleri yüzünden koruma altına alınmaktadır.

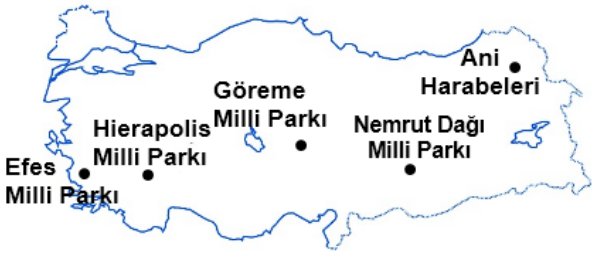

Haritada işaretli alanlardan hangisi hem doğal güzellik hem de kültürel varlık olarak koruma altına alınan yerler bir arada verilmiştir?

A) Efes ve Hierapolis Milli Parkı

B) Ani Harabeleri ve Göreme Milli Parkı

C) Hierapolis Milli Parkı ve Göreme Milli Parkı

D) Nemrut Dağı Milli Parkı ve Ani Harabeleri

E) Göreme Milli Parkı ve Efes

3. Türkiye'nin önde gelen yatırımcı şirketlerinden birinin CEO'su yeni açacakları hazır giyim ve tekstil fabrikasının yerinin belirlenmesi için ekibinden bir fizibilite çalışması istemiştir. Ekibinden fabrikanın açılacağı yer ile ilgili olarak

- Açacakları fabrikanın için tüketici nüfusa yakınlığın rakip firmalar ile rekabet açısından avantaj olacağını
- Fabrikanın enerjisinin yenilenebilir temiz bir enerji kaynağından elde edilmesinin kamuda pozitif etki yaratacağı görüşüne dayanarak yer seçiminin bu doğrultuda yapılması gerektiğini
- Fabrikanın hammaddesinin yakınında kurulmasının üretim maliyetlerini düşüreceğinden yine yer seçiminde bu konuya dikkat edilmesi gerektiğini

belirterek dikkat etmelerini ve fabrikanın kuruluş yeri ile ilgili olarak bu maddelerin göz önünde bulundurulması gerektiği talimatını vermiştir.

Buna göre aşağıdakilerden hangisi ekibin yer seçimi ile ilgili en doğru karar olacaktır?

A) Denizli

B) İstanbul

C) Şanlı Urfa

D) İzmit

E) Konya

Ahmet Burak Kargı © 2018

4. Cumhuriyetin ilk yıllarından itibaren 1940'lı yıllara kadar gelişme gösteren demir yolu ulaşımı 1940'lı yıllardan sonra yer şekillerinin engebeli olmasından ve başka nedenlerden ötürü gelişme kaydedememiştir. Günümüzde bazı kent merkezlerine demir yolu bağlantısı bulunurken engebe yüzünden bazı kentlerimizde hala demir yolu bağlantısı bulunmamaktadır.

I. Antalya

II. Mersin

III. Trabzon

IV. Samsun

Yukarıdaki numaralandırılarak verilen kentlerden hangilerinde yer şekillerinin engebeli olmasından dolayı demiryolu bağlantısı yoktur?

A) Yalnız I

B) I – II

C) II – IV

D) I – III

E) I – IV

5. Bazı şehirlerde yapılan işler, alınan kararlar, üretilen mallar ve hizmetler dünya çapında bir alana veya kitleye hitap eder. Böyle şehirlere etki alanı KÜRESEL çapta olan şehirler denir.

Genel olarak nüfusu fazla, sanayisi gelişmiş, ticaret ve finans merkezi olan şehirlerin etki alanları daha geniştir.

Aşağıdakilerden hangisinin etki alanı diğerlerine göre daha dardır?

A) Londra

B) Moskova

C) Rio de Janeiro

D) New York

E) Roma

Ahmet Burak Kargı © 2018

6. Aşağıdaki harita üzerinde taranarak gösterilen alanlarda değişik ölçütlere göre coğrafi bölgeler belirlenmek istenmektedir.

Buna göre oluşturulacak;

I. Kaplıca turizm bölgesi

II. Yağmur ormanları bölgesi

III. Jeotermal enerji bölgesi

IV. Çalı biyomu bölgesi

Sınıflandırmalarından hangilerinin, bütün alanlar için geçerli bir bölge sınıflaması olduğu söylenebilir?

A) Yalnız I

B) I – II

C) I – III

D) II – III

E) II – IV

1. Antalya ve Mersin gibi kıyı kentlerimizin bazılarında nüfus mevsimlik olarak çok değişiklik göstermektedir. **Bu kentlerde meydana gelen mevsimlik nüfus artışında;**

I. Madencilik
II. Sanayi
III. Turizm
IV. Tarım
V. Ormancılık

sektörlerinden hangileri daha az etkiye sahiptir?

A) I – II
B) I – II – V
C) II – V
D) I – V
E) III – IV

2. Aşağıdaki haritada Türkiye'de yetiştirilen bir tarım ürününün yetiştirildiği alanlar verilmiştir.

yalızca bu bilgiye dayanarak,

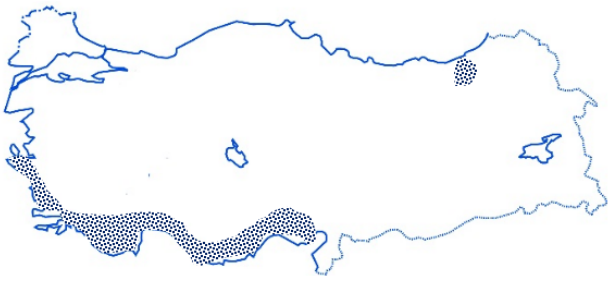

I. Ilıman iklim koşullarında yetiştirilebildiği
II. Don olaylarından olumsuz etkilenmediği
III. Ilıman iklim kuşağı dışında yetiştiriciliğinin yapılamadığı
IV. Üretimin fazla olması yüzünden ihracatı yapılmaktadır.

gibi yargılardan hangisine ulaşılabilir?

A) Yalnız I
B) I ve II
C) I – III
D) II – IV
E) III – IV

3. 1915 yılında Alman bilimadamı Alfred Wegener tarafından ortaya atılan " Kıtaların Kayması " teorisine göre, dünyamız ilk oluşmaya başladığında Pangea adı verilen tek bir kıta ve onu çevreleyen Pantalasia denilen tek bir okyanus bulunmaktaydı. Daha sonra Pangea parçalanarak bugün ki kıtalar oluşmuştur. **Alfred Wegener Kıtaların Kayması teorisini desteklemek için,**

I. Kıtaların birbirini bir yap boz parçası gibi tamamlaması
II. Farklı kıtaların birbirine yakın kıyılarında bitki örtüsü ve iklimlerin benzer olması
III. Kıtaların bibirine yakın kıyılarındaki fosillerin birbirine benzer olması

gibi yargılardan hangilerini kanıt olarak kullanmış olabilir?

A) Yalnız I
B) Yalnız II
C) I ve III
D) II ve III
E) I – II – III

Ahmet Burak Kargı © 2018

4. Aşağıdaki haritada bazı yerler numaralandırılarak gösterilmiştir.

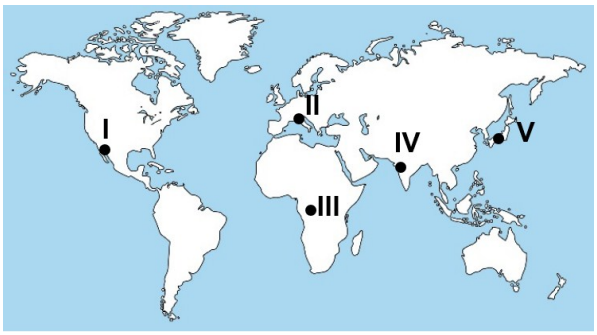

Bu yerlerde meydana gelen doğal afetler ile ilgili aşağıdakilerden hangisi yanlıştır?

A) I numaralı yerden geçen fay hattı yüzünden farklı büyük ölçekli depremler oluşmaktadır.

B) II numaralı yerdeki aktif yanardağlar yüzünden bölgede tarih boyunca can kayıpları yaşanmıştır.

C) III numaralı yerde, iklim ve bitki örtüsüne bağlı olarak orman yangınları çıkmaktadır.

D) IV numaralı yerde iklim ve yer şekillerine bağlı olarak şiddetli sel ve su taşkınları olmaktadır

E) V numaralı yerde jeolojik nedenlere bağlı olarak tsunamiler yaşanmaktadır.

Ahmet Burak Kargı © 2018

5. Doğa olayları normal seyrinde devam ederken bazen bu normal seyrin dışına çıkarak ogüne kadar görülmeyen yada çok seyrek görülen olaylar şeklinde gerçekleşebilmektedir. Bu olaylar ekstrem olaylar olarak adlandırılmaktadır.

Ekstrem olaylar oluşum kökenine göre klimatolojik, jeolojik, jeomorfolojik ve hidrolojik eksterem olaylar olarak sınıflandırılır.

Buna göre;

I. Bugüne kadar yeryüzünde en yüksek sıcaklık değeri 13 Eylül 1922 tarihinde Libya'nın El Aziz kentinde 57 derece olarak ölçül müştür.

II. 1960 yılında Şili'de meydana gelen 9,5 bü yüklüğündeki deprem dünya tarihinin bilinen en büyük depremidir.

III. 2011 yılında Japonya'da meydana gelen Tsunamide 16 bin civarında insan ölmüştür.

Yukarıda maddelerle verilen ekstrem olayların oluşum kökeni aşağıdakilerden hangisinde doğru olarak verilmiştir?

A)

I	Hidrolojik Karakterli
II	Jeolojik Karakterli
III	Klimatolojik Karakterli

B)

I	Hidrolojik Karakterli
II	Jeolojik Karakterli
III	Jeomorfolojik Karakterli

C)

I	Hidrolojik Karakterli
II	Jeolojik Karakterli
III	Jeolojik Karakterli

D)

I	Klimatolojik Karakterli
II	Jeolojik Karakterli
III	Jeolojik Karakterli

E)

I	Klimatolojik Karakterli
II	Jeolojik Karakterli
III	Hidrolojik Karakterli

6.

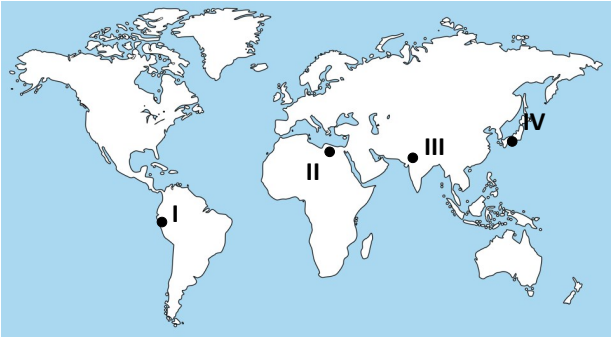

Yukarıdaki haritada ilk yerleşmelerin ve kültür merkezlerinin kurulduğu başlıca yerler verilerek aşağıda bu yerlerde kurulan uygarlıklar ile eşleştirilmiştir.

I. Maya Uygarlığı

II. Mısır Uygarlığı

III. Hint Uygarlığı

IV. Çin Uygarlığı

Buna göre haritada işaretli yer ve bu yerlerde kurulan uygarlık hangisinde yanlış eşleştirilmiştir?

A) I

B) II

C) I - III

D) I - IV

E) IV

CEVAP ANAHTARI

	1	2	3	4	5	6
AYT Deneme -1	**C**	**E**	**C**	**B**	**D**	**B**
AYT Deneme -2	D	B	A	B	A	A
AYT Deneme -3	C	C	E	E	D	D
AYT Deneme -4	B	B	E	A	A	D
AYT Deneme -5	C	D	B	E	E	D
AYT Deneme -6	A	A	D	E	B	D
AYT Deneme -7	E	B	D	D	E	E
AYT Deneme -8	A	B	D	B	A	C
AYT Deneme -9	A	C	A	D	C	C
AYT Deneme -10	A	C	C	C	D	D